Löse jede Aufgabe.

1)

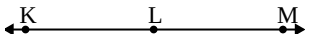

Durch welche Möglichkeit wird ∠KLM dargestellt?

A. 180°
B. 115°
C. 1°
D. 24°

2)

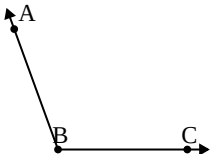

Durch welche Möglichkeit wird ∠ABC dargestellt?

A. 7°
B. 164°
C. 110°
D. 60°

3)

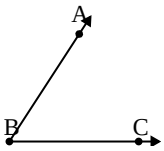

Durch welche Möglichkeit wird ∠ABC dargestellt?

A. 162°
B. 99°
C. 57°
D. 3°

4)

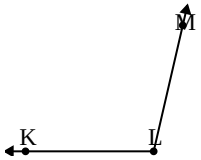

Durch welche Möglichkeit wird ∠KLM dargestellt?

A. 103°
B. 42°
C. 82°
D. 13°

5)

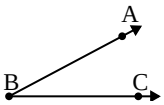

Durch welche Möglichkeit wird ∠ABC dargestellt?

A. 102°
B. 147°
C. 28°
D. 80°

6)

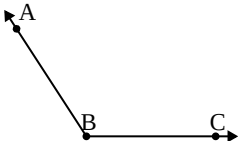

Durch welche Möglichkeit wird ∠ABC dargestellt?

A. 123°
B. 91°
C. 151°
D. 19°

7)

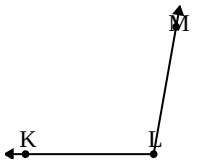

Durch welche Möglichkeit wird ∠KLM dargestellt?

A. 75°
B. 134°
C. 100°
D. 15°

8)

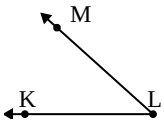

Durch welche Möglichkeit wird ∠KLM dargestellt?

A. 21°
B. 42°
C. 149°
D. 68°

9)

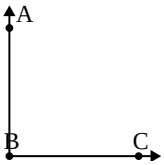

Durch welche Möglichkeit wird ∠ABC dargestellt?

A. 29°
B. 90°
C. 163°
D. 133°

Antworten

1. _____
2. _____
3. _____
4. _____
5. _____
6. _____
7. _____
8. _____
9. _____

1-9	89	78	67	56	44	33	22	11	0

Löse jede Aufgabe.

1)

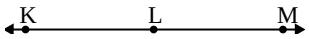

Durch welche Möglichkeit wird ∠KLM dargestellt?

A. 180°
B. 115°
C. 1°
D. 24°

2)

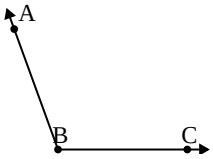

Durch welche Möglichkeit wird ∠ABC dargestellt?

A. 7°
B. 164°
C. 110°
D. 60°

3)

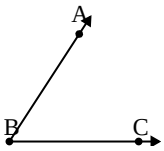

Durch welche Möglichkeit wird ∠ABC dargestellt?

A. 162°
B. 99°
C. 57°
D. 3°

4)

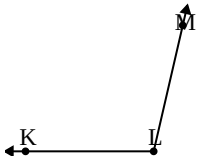

Durch welche Möglichkeit wird ∠KLM dargestellt?

A. 103°
B. 42°
C. 82°
D. 13°

5)

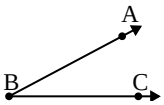

Durch welche Möglichkeit wird ∠ABC dargestellt?

A. 102°
B. 147°
C. 28°
D. 80°

6)

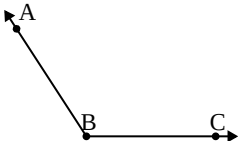

Durch welche Möglichkeit wird ∠ABC dargestellt?

A. 123°
B. 91°
C. 151°
D. 19°

7)

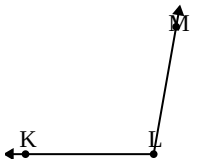

Durch welche Möglichkeit wird ∠KLM dargestellt?

A. 75°
B. 134°
C. 100°
D. 15°

8)

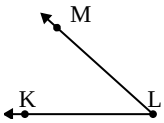

Durch welche Möglichkeit wird ∠KLM dargestellt?

A. 21°
B. 42°
C. 149°
D. 68°

9)

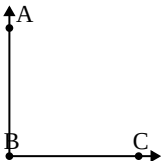

Durch welche Möglichkeit wird ∠ABC dargestellt?

A. 29°
B. 90°
C. 163°
D. 133°

Antworten

1. A
2. C
3. C
4. A
5. C
6. A
7. C
8. B
9. B

1-9	89	78	67	56	44	33	22	11	0