Ermitteln des Stellenwertes mit Blöcken

Name:

Löse jede Aufgabe.

1)

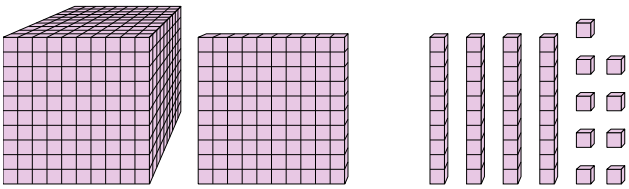

Welche Ziffer ist in der hunderten-Stelle in der obigen Zahl?

2)

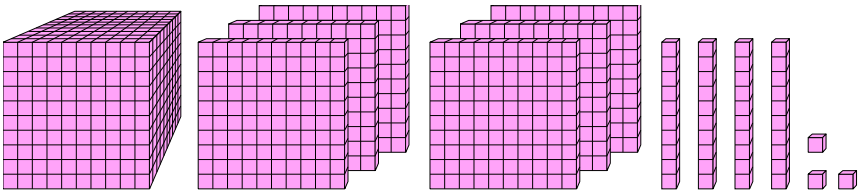

Welche Ziffer ist in der billions-Stelle in der obigen Zahl?

3)

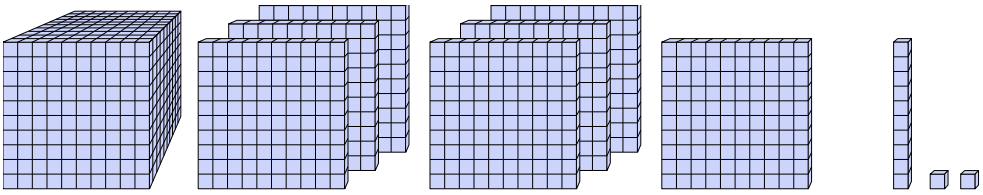

Welche Ziffer ist in der zehnern-Stelle in der obigen Zahl?

4)

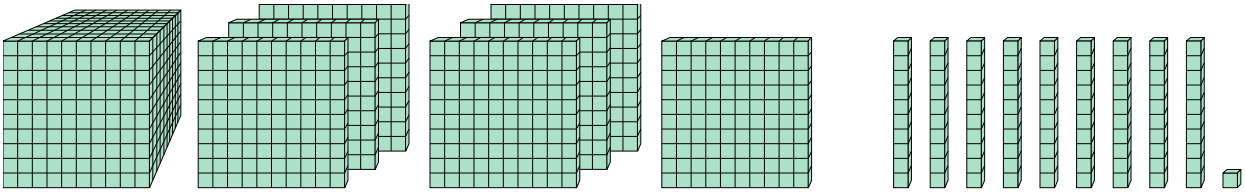

Welche Ziffer ist in der zehnern-Stelle in der obigen Zahl?

5)

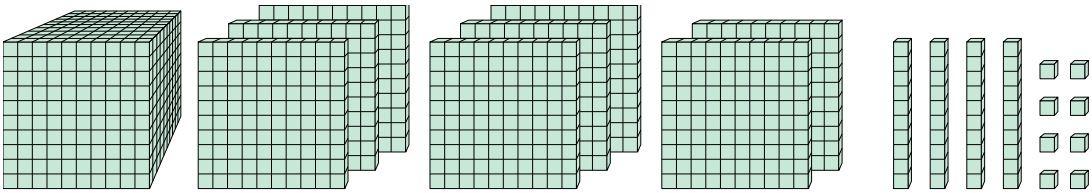

Welche Ziffer ist in der einern-Stelle in der obigen Zahl?

6)

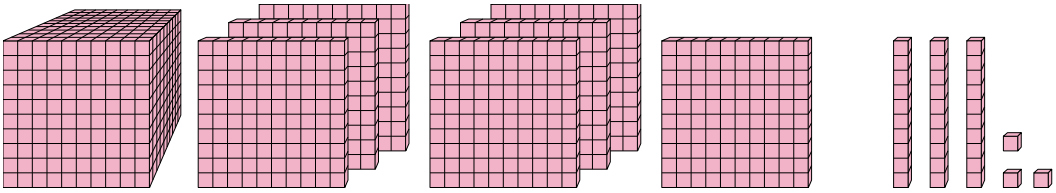

Welche Ziffer ist in der zehnern-Stelle in der obigen Zahl?

Antworten

1. _____
2. _____
3. _____
4. _____
5. _____
6. _____

Ermitteln des Stellenwertes mit Blöcken

Name: **Lösungsschlüssel**

Löse jede Aufgabe.

1)

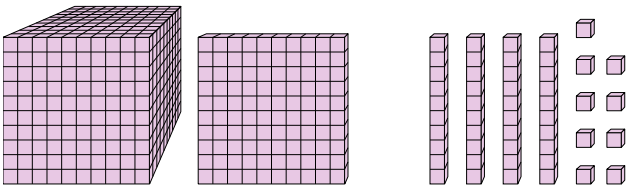

Welche Ziffer ist in der hunderten-Stelle in der obigen Zahl?

2)

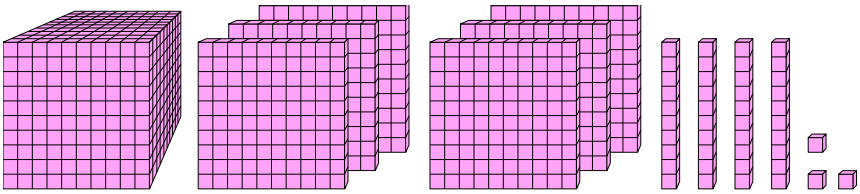

Welche Ziffer ist in der billions-Stelle in der obigen Zahl?

3)

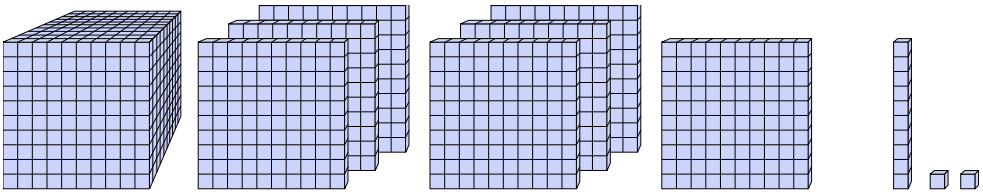

Welche Ziffer ist in der zehnern-Stelle in der obigen Zahl?

4)

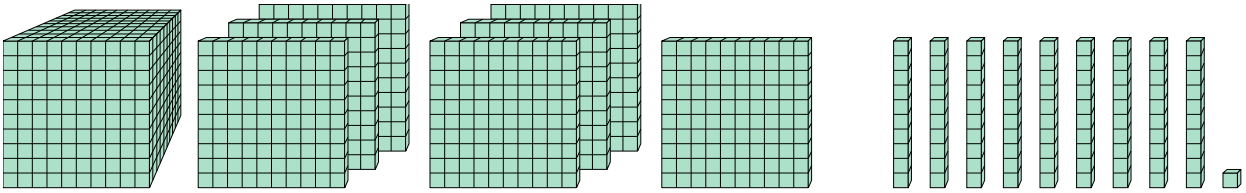

Welche Ziffer ist in der zehnern-Stelle in der obigen Zahl?

5)

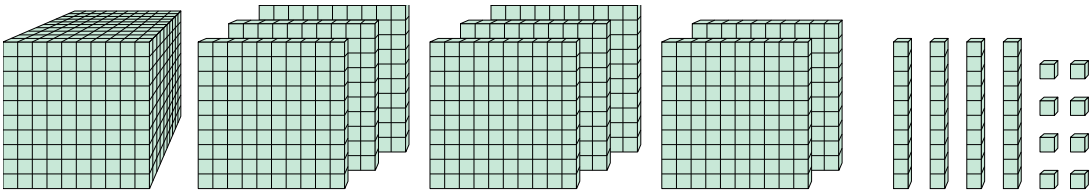

Welche Ziffer ist in der einern-Stelle in der obigen Zahl?

6)

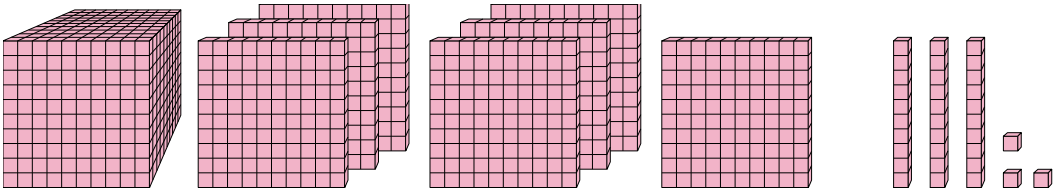

Welche Ziffer ist in der zehnern-Stelle in der obigen Zahl?

Antworten

1. **1**
2. **6**
3. **1**
4. **9**
5. **8**
6. **3**

1-6	83	67	50	33	17	0