Verwenden Sie jedes Diagramm, um die Probleme zu lösen.

1) Wenn Sie einmal würfeln würden, wie hoch ist die Wahrscheinlichkeit, dass er auf einem 3 landet?

2) Wenn Sie einmal würfeln würden, wie hoch ist die Wahrscheinlichkeit, dass es {NICHT} auf einem 1 landet?

3) Wenn Sie einmal würfeln würden, wie groß ist die Wahrscheinlichkeit, dass er auf einer ungerade-Zahl landet?



4) Welche Form hat eine Wahrscheinlichkeit von 40,00 % (8 von 20), ausgewählt zu werden?

5) Wie viele Formen gibt es insgesamt im Array?

6) Wenn Sie zufällig 1 Form aus dem Array auswählen würden, welche Form haben Sie dann mit der größten Wahrscheinlichkeit auszuwählen?

7) Wenn Sie zufällig 1 Form aus dem Array auswählen würden, wie hoch ist die Wahrscheinlichkeit, dass es ein diamond ist?

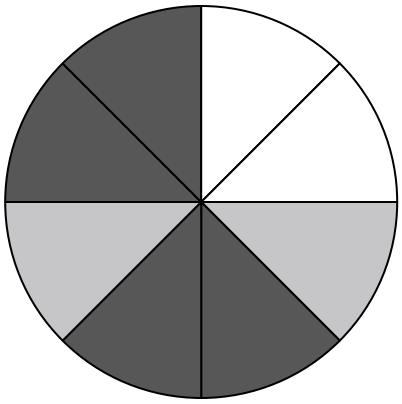

8) Wenn Sie den Spinner 1 Mal drehen, wie groß ist die Wahrscheinlichkeit, dass er auf einem weißen Stein landet?

9) Wenn Sie den Spinner 1 Mal drehen, wie groß ist die Wahrscheinlichkeit, dass er auf einem schwarzen Stein landet?

10) Wenn Sie den Spinner 1 Mal drehen, wie groß ist die Wahrscheinlichkeit, dass er auf einem grauen Stück landet?

11) Wie viele Teile befinden sich insgesamt im Spinner?

12) Wenn Sie den Spinner 1 Mal drehen, wie groß ist die Wahrscheinlichkeit, auf einem white-Stück oder einem gray-Stück zu landen?

Antworten

1. _____
2. _____
3. _____
4. _____
5. _____
6. _____
7. _____
8. _____
9. _____
10. _____
11. _____
12. _____

1-10	92	83	75	67	58	50	42	33	25	17
11-12	8	0								

Verwenden Sie jedes Diagramm, um die Probleme zu lösen.

1) Wenn Sie einmal würfeln würden, wie hoch ist die Wahrscheinlichkeit, dass er auf einem 3 landet?

2) Wenn Sie einmal würfeln würden, wie hoch ist die Wahrscheinlichkeit, dass es {NICHT} auf einem 1 landet?

3) Wenn Sie einmal würfeln würden, wie groß ist die Wahrscheinlichkeit, dass er auf einer ungerade-Zahl landet?

---

4) Welche Form hat eine Wahrscheinlichkeit von 40,00 % (8 von 20), ausgewählt zu werden?



5) Wie viele Formen gibt es insgesamt im Array?

6) Wenn Sie zufällig 1 Form aus dem Array auswählen würden, welche Form haben Sie dann mit der größten Wahrscheinlichkeit auszuwählen?

7) Wenn Sie zufällig 1 Form aus dem Array auswählen würden, wie hoch ist die Wahrscheinlichkeit, dass es ein diamond ist?

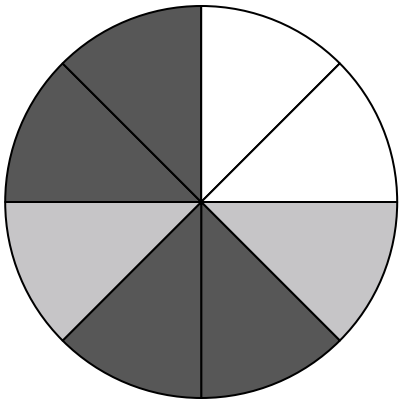

8) Wenn Sie den Spinner 1 Mal drehen, wie groß ist die Wahrscheinlichkeit, dass er auf einem weißen Stein landet?

9) Wenn Sie den Spinner 1 Mal drehen, wie groß ist die Wahrscheinlichkeit, dass er auf einem schwarzen Stein landet?

10) Wenn Sie den Spinner 1 Mal drehen, wie groß ist die Wahrscheinlichkeit, dass er auf einem grauen Stück landet?

11) Wie viele Teile befinden sich insgesamt im Spinner?

12) Wenn Sie den Spinner 1 Mal drehen, wie groß ist die Wahrscheinlichkeit, auf einem white-Stück oder einem gray-Stück zu landen?

Antworten

1. **1 von 6**
2. **5 von 6**
3. **3 von 6**
4. **circle**
5. **20**
6. **diamond**
7. **6 von 20**
8. **2 von 8**
9. **4 von 8**
10. **2 von 8**
11. **8**
12. **4 von 8**

1-10	92	83	75	67	58	50	42	33	25	17
11-12	8	0								