Bestimmung der prozentualen Spinnerchance

Name:

Lösen Sie jedes Problem. Runden Sie Ihre Antwort auf das nächste Zehntel.

1)

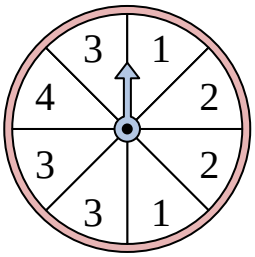

Der Spinner hat eine _____% Chance, auf einem 3 zu landen.

2)

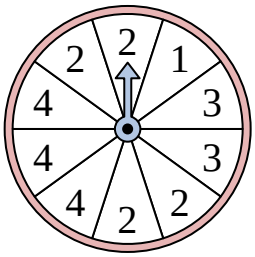

Der Spinner hat eine _____% Chance, auf einem 4 zu landen.

3)

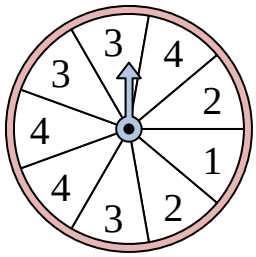

Der Spinner hat eine _____% Chance, auf einem 3 zu landen.

4)

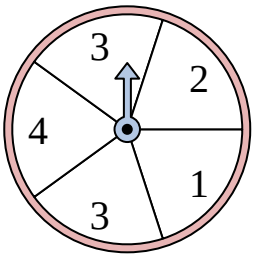

Der Spinner hat eine _____% Chance, auf einem 1 zu landen.

5)

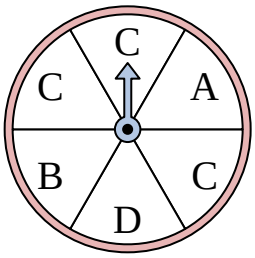

Der Spinner hat eine _____% Chance, auf einem C zu landen.

6)

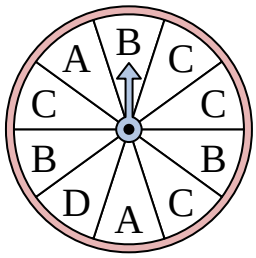

Der Spinner hat eine _____% Chance, auf einem D zu landen.

7)

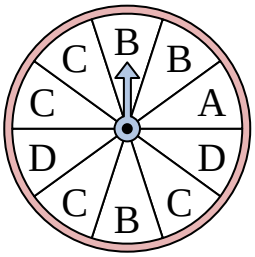

Der Spinner hat eine _____% Chance, auf einem A zu landen.

8)

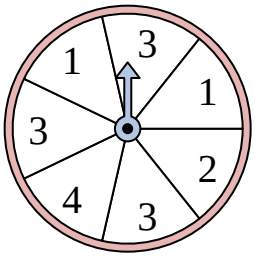

Der Spinner hat eine _____% Chance, auf einem 3 zu landen.

9)

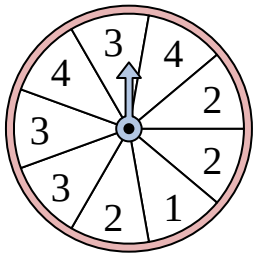

Der Spinner hat eine _____% Chance, auf einem 4 zu landen.

10)

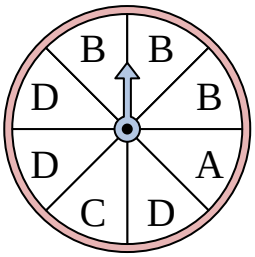

Der Spinner hat eine _____% Chance, auf einem B zu landen.

11)

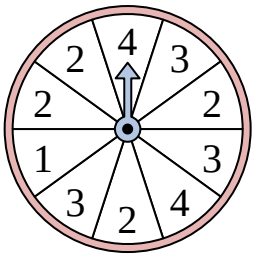

Der Spinner hat eine _____% Chance, auf einem 1 zu landen.

12)

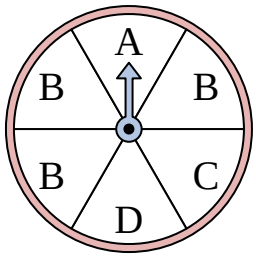

Der Spinner hat eine _____% Chance, auf einem C zu landen.

Antworten

1. _____
2. _____
3. _____
4. _____
5. _____
6. _____
7. _____
8. _____
9. _____
10. _____
11. _____
12. _____

1-10	92	83	75	67	58	50	42	33	25	17
11-12	8	0								

Bestimmung der prozentualen Spinnerchance Name: **Lösungsschlüssel**

Lösen Sie jedes Problem. Runden Sie Ihre Antwort auf das nächste Zehntel.

1)

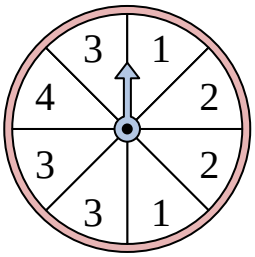

Der Spinner hat eine _____% Chance, auf einem 3 zu landen.

2)

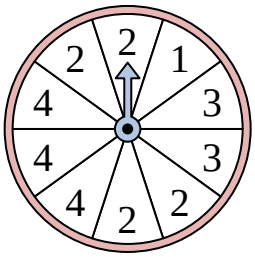

Der Spinner hat eine _____% Chance, auf einem 4 zu landen.

3)

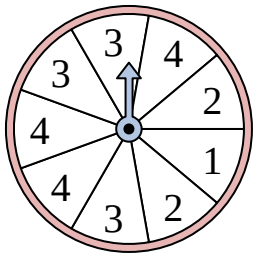

Der Spinner hat eine _____% Chance, auf einem 3 zu landen.

4)

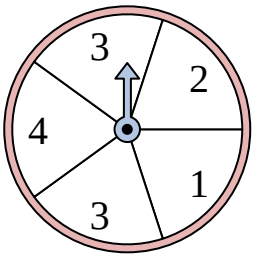

Der Spinner hat eine _____% Chance, auf einem 1 zu landen.

5)

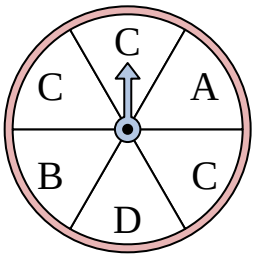

Der Spinner hat eine _____% Chance, auf einem C zu landen.

6)

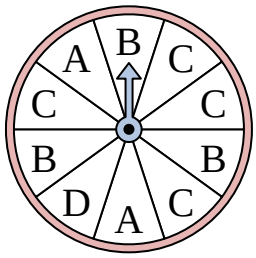

Der Spinner hat eine _____% Chance, auf einem D zu landen.

7)

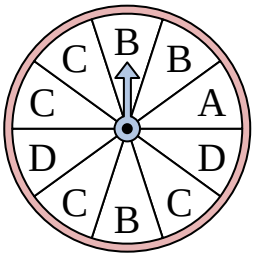

Der Spinner hat eine _____% Chance, auf einem A zu landen.

8)

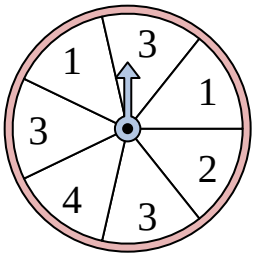

Der Spinner hat eine _____% Chance, auf einem 3 zu landen.

9)

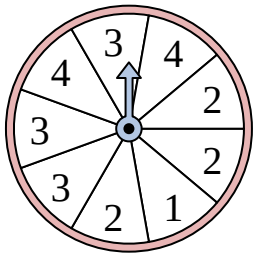

Der Spinner hat eine _____% Chance, auf einem 4 zu landen.

10)

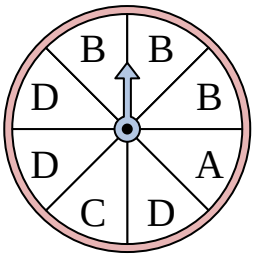

Der Spinner hat eine _____% Chance, auf einem B zu landen.

11)

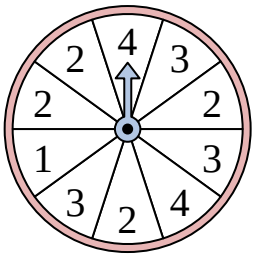

Der Spinner hat eine _____% Chance, auf einem 1 zu landen.

12)

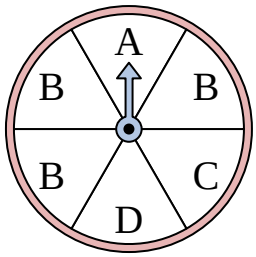

Der Spinner hat eine _____% Chance, auf einem C zu landen.

Antworten

1. 37,5
2. 30
3. 33,3
4. 20
5. 50
6. 10
7. 10
8. 42,9
9. 22,2
10. 37,5
11. 10
12. 16,7

1-10	92	83	75	67	58	50	42	33	25	17
11-12	8	0								

Bestimmung der prozentualen Spinnerchance

Name:

Lösen Sie jedes Problem. Runden Sie Ihre Antwort auf das nächste Zehntel.

1)

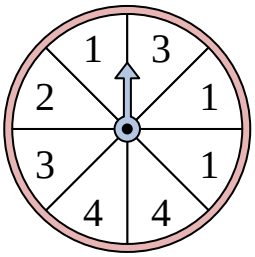

Der Spinner hat eine _____% Chance, auf einem 3 zu landen.

2)

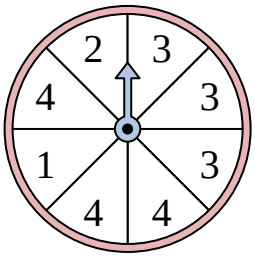

Der Spinner hat eine _____% Chance, auf einem 3 zu landen.

3)

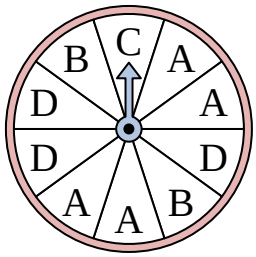

Der Spinner hat eine _____% Chance, auf einem B zu landen.

4)

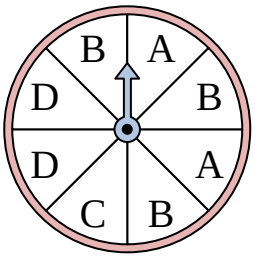

Der Spinner hat eine _____% Chance, auf einem C zu landen.

5)

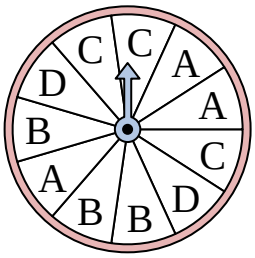

Der Spinner hat eine _____% Chance, auf einem D zu landen.

6)

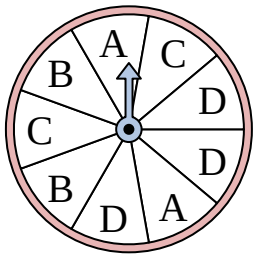

Der Spinner hat eine _____% Chance, auf einem C zu landen.

7)

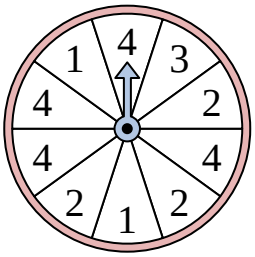

Der Spinner hat eine _____% Chance, auf einem 1 zu landen.

8)

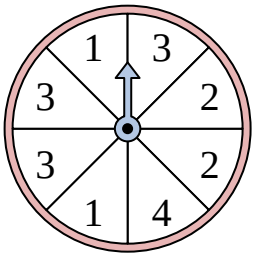

Der Spinner hat eine _____% Chance, auf einem 3 zu landen.

9)

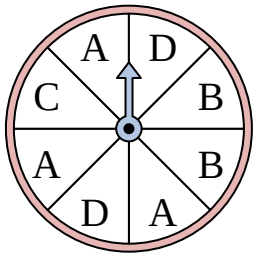

Der Spinner hat eine _____% Chance, auf einem B zu landen.

10)

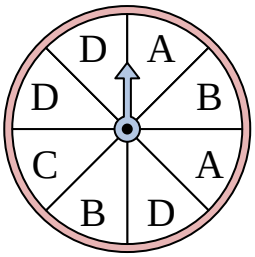

Der Spinner hat eine _____% Chance, auf einem B zu landen.

11)

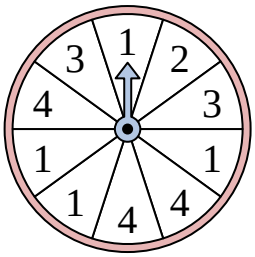

Der Spinner hat eine _____% Chance, auf einem 3 zu landen.

12)

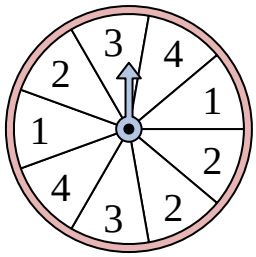

Der Spinner hat eine _____% Chance, auf einem 1 zu landen.

Antworten

1. _____
2. _____
3. _____
4. _____
5. _____
6. _____
7. _____
8. _____
9. _____
10. _____
11. _____
12. _____

1-10	92	83	75	67	58	50	42	33	25	17
11-12	8	0								

Bestimmung der prozentualen Spinnerchance Name: **Lösungsschlüssel**

Lösen Sie jedes Problem. Runden Sie Ihre Antwort auf das nächste Zehntel.

1)

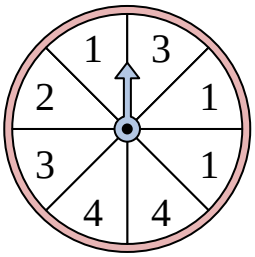

Der Spinner hat eine _____% Chance, auf einem 3 zu landen.

2)

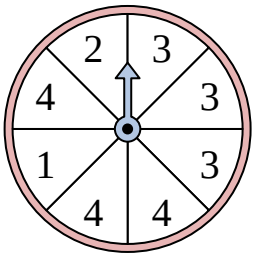

Der Spinner hat eine _____% Chance, auf einem 3 zu landen.

3)

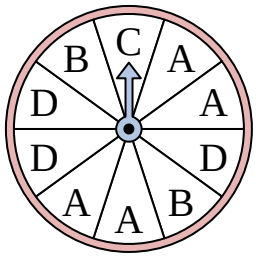

Der Spinner hat eine _____% Chance, auf einem B zu landen.

4)

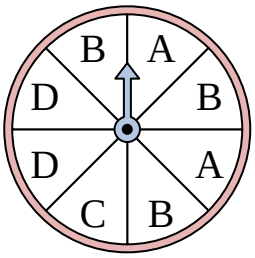

Der Spinner hat eine _____% Chance, auf einem C zu landen.

5)

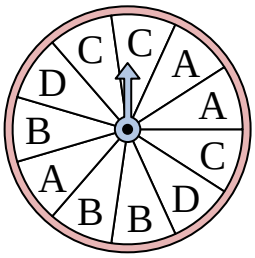

Der Spinner hat eine _____% Chance, auf einem D zu landen.

6)

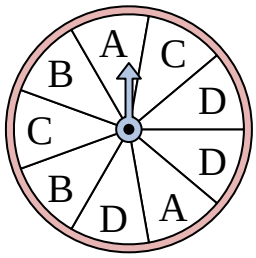

Der Spinner hat eine _____% Chance, auf einem C zu landen.

7)

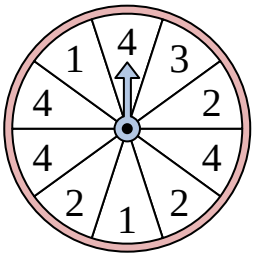

Der Spinner hat eine _____% Chance, auf einem 1 zu landen.

8)

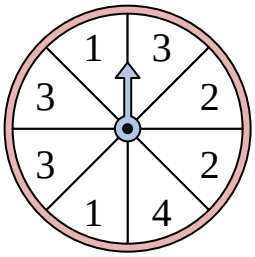

Der Spinner hat eine _____% Chance, auf einem 3 zu landen.

9)

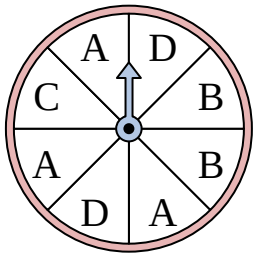

Der Spinner hat eine _____% Chance, auf einem B zu landen.

10)

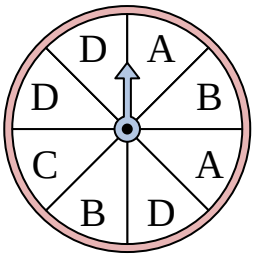

Der Spinner hat eine _____% Chance, auf einem B zu landen.

11)

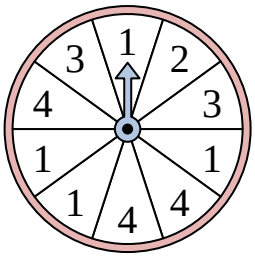

Der Spinner hat eine _____% Chance, auf einem 3 zu landen.

12)

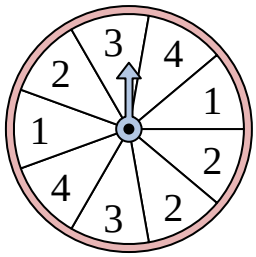

Der Spinner hat eine _____% Chance, auf einem 1 zu landen.

Antworten

1. 25
2. 37,5
3. 20
4. 12,5
5. 18,2
6. 22,2
7. 20
8. 37,5
9. 25
10. 25
11. 20
12. 22,2

1-10	92	83	75	67	58	50	42	33	25	17
11-12	8	0								

Bestimmung der prozentualen Spinnerchance

Name:

Lösen Sie jedes Problem. Runden Sie Ihre Antwort auf das nächste Zehntel.

1)

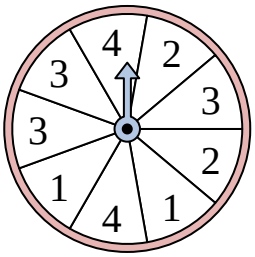

Der Spinner hat eine _____% Chance, auf einem 2 zu landen.

2)

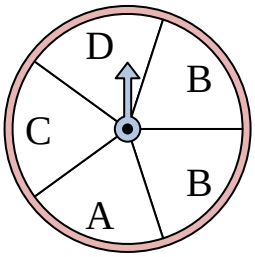

Der Spinner hat eine _____% Chance, auf einem D zu landen.

3)

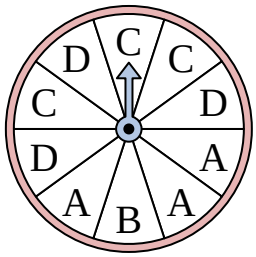

Der Spinner hat eine _____% Chance, auf einem B zu landen.

4)

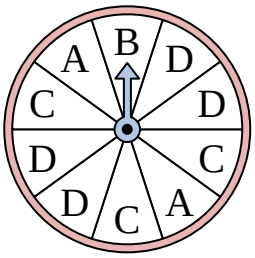

Der Spinner hat eine _____% Chance, auf einem A zu landen.

5)

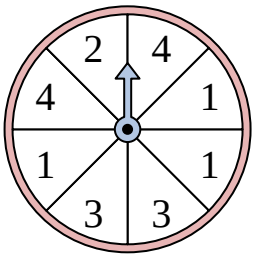

Der Spinner hat eine _____% Chance, auf einem 3 zu landen.

6)

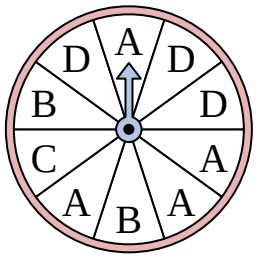

Der Spinner hat eine _____% Chance, auf einem C zu landen.

7)

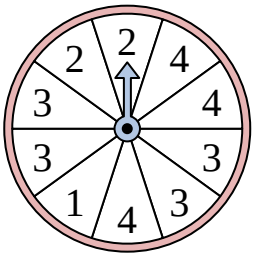

Der Spinner hat eine _____% Chance, auf einem 4 zu landen.

8)

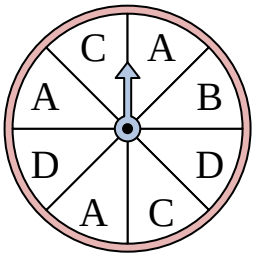

Der Spinner hat eine _____% Chance, auf einem C zu landen.

9)

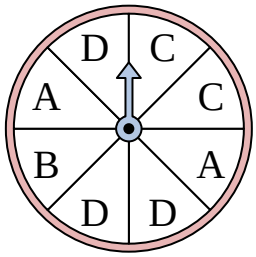

Der Spinner hat eine _____% Chance, auf einem D zu landen.

10)

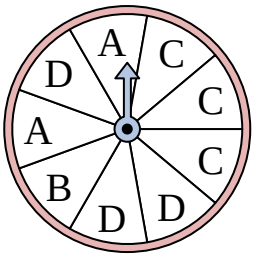

Der Spinner hat eine _____% Chance, auf einem A zu landen.

11)

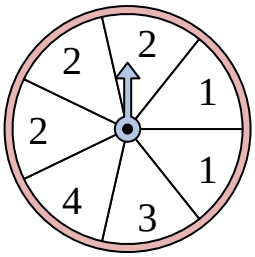

Der Spinner hat eine _____% Chance, auf einem 1 zu landen.

12)

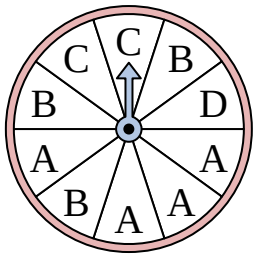

Der Spinner hat eine _____% Chance, auf einem A zu landen.

Antworten

1. _____
2. _____
3. _____
4. _____
5. _____
6. _____
7. _____
8. _____
9. _____
10. _____
11. _____
12. _____

1-10	92	83	75	67	58	50	42	33	25	17
11-12	8	0								

Bestimmung der prozentualen Spinnerchance Name: **Lösungsschlüssel**

Lösen Sie jedes Problem. Runden Sie Ihre Antwort auf das nächste Zehntel.

1)

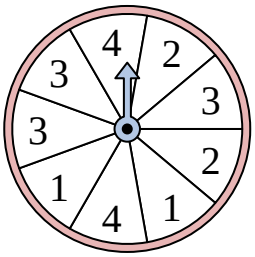

Der Spinner hat eine _____% Chance, auf einem 2 zu landen.

2)

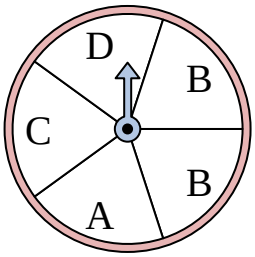

Der Spinner hat eine _____% Chance, auf einem D zu landen.

3)

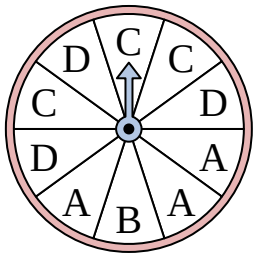

Der Spinner hat eine _____% Chance, auf einem B zu landen.

4)

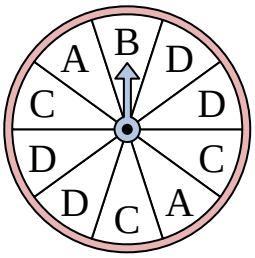

Der Spinner hat eine _____% Chance, auf einem A zu landen.

5)

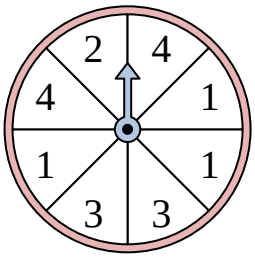

Der Spinner hat eine _____% Chance, auf einem 3 zu landen.

6)

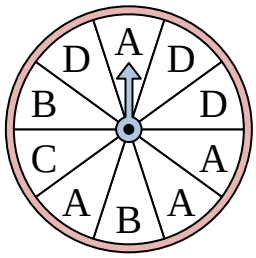

Der Spinner hat eine _____% Chance, auf einem C zu landen.

7)

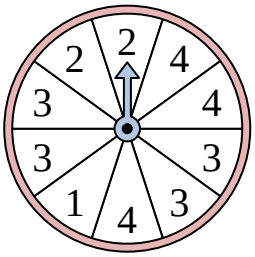

Der Spinner hat eine _____% Chance, auf einem 4 zu landen.

8)

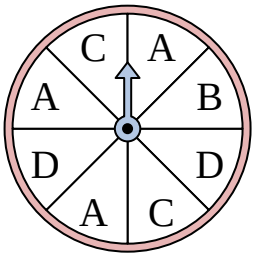

Der Spinner hat eine _____% Chance, auf einem C zu landen.

9)

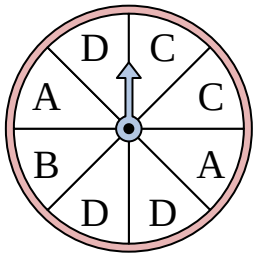

Der Spinner hat eine _____% Chance, auf einem D zu landen.

10)

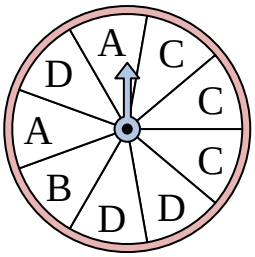

Der Spinner hat eine _____% Chance, auf einem A zu landen.

11)

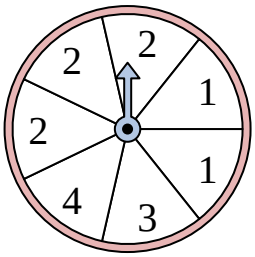

Der Spinner hat eine _____% Chance, auf einem 1 zu landen.

12)

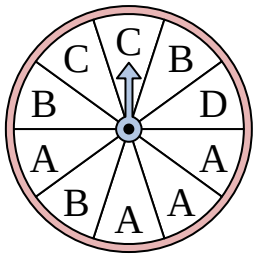

Der Spinner hat eine _____% Chance, auf einem A zu landen.

Antworten

1. 22,2
2. 20
3. 10
4. 20
5. 25
6. 10
7. 30
8. 25
9. 37,5
10. 22,2
11. 28,6
12. 40

1-10	92	83	75	67	58	50	42	33	25	17
11-12	8	0								

Bestimmung der prozentualen Spinnerchance Name:

Lösen Sie jedes Problem. Runden Sie Ihre Antwort auf das nächste Zehntel.

1)

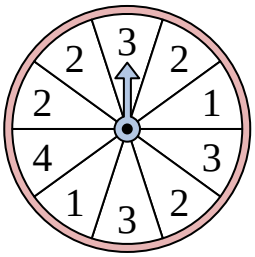

Der Spinner hat eine _____% Chance, auf einem 2 zu landen.

2)

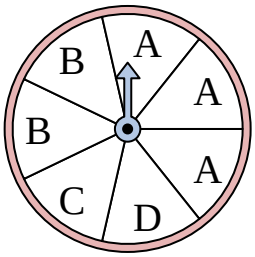

Der Spinner hat eine _____% Chance, auf einem D zu landen.

3)

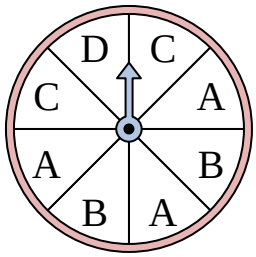

Der Spinner hat eine _____% Chance, auf einem A zu landen.

4)

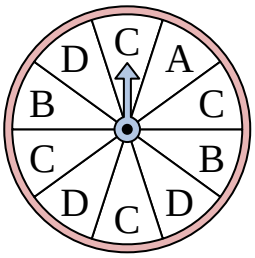

Der Spinner hat eine _____% Chance, auf einem D zu landen.

5)

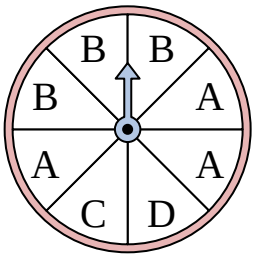

Der Spinner hat eine _____% Chance, auf einem D zu landen.

6)

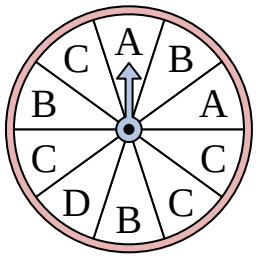

Der Spinner hat eine _____% Chance, auf einem B zu landen.

7)

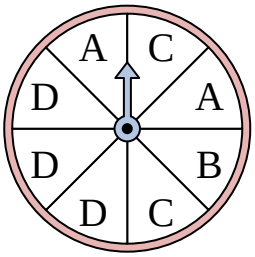

Der Spinner hat eine _____% Chance, auf einem D zu landen.

8)

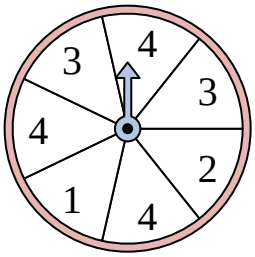

Der Spinner hat eine _____% Chance, auf einem 2 zu landen.

9)

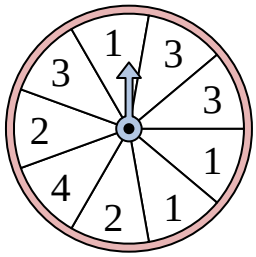

Der Spinner hat eine _____% Chance, auf einem 1 zu landen.

10)

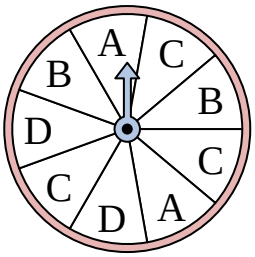

Der Spinner hat eine _____% Chance, auf einem C zu landen.

11)

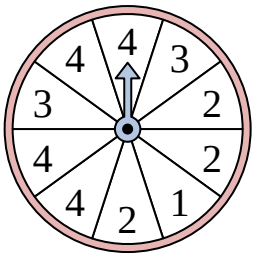

Der Spinner hat eine _____% Chance, auf einem 4 zu landen.

12)

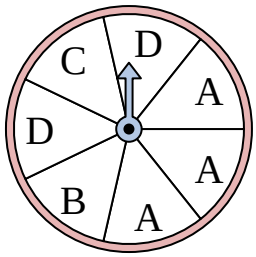

Der Spinner hat eine _____% Chance, auf einem D zu landen.

Antworten

1. _____
2. _____
3. _____
4. _____
5. _____
6. _____
7. _____
8. _____
9. _____
10. _____
11. _____
12. _____

1-10	92	83	75	67	58	50	42	33	25	17
11-12	8	0								

Bestimmung der prozentualen Spinnerchance Name: **Lösungsschlüssel**

Lösen Sie jedes Problem. Runden Sie Ihre Antwort auf das nächste Zehntel.

1)

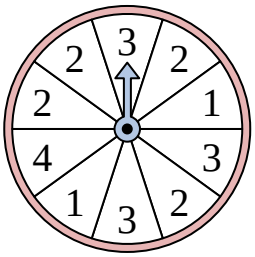

Der Spinner hat eine _____% Chance, auf einem 2 zu landen.

2)

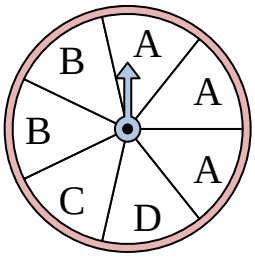

Der Spinner hat eine _____% Chance, auf einem D zu landen.

3)

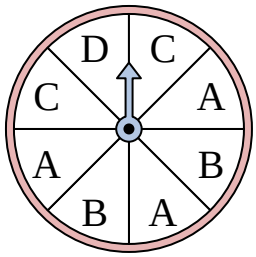

Der Spinner hat eine _____% Chance, auf einem A zu landen.

4)

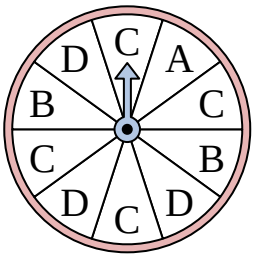

Der Spinner hat eine _____% Chance, auf einem D zu landen.

5)

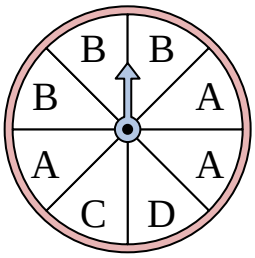

Der Spinner hat eine _____% Chance, auf einem D zu landen.

6)

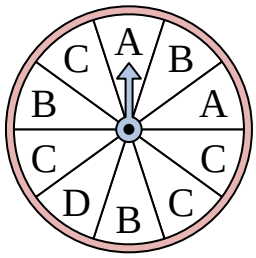

Der Spinner hat eine _____% Chance, auf einem B zu landen.

7)

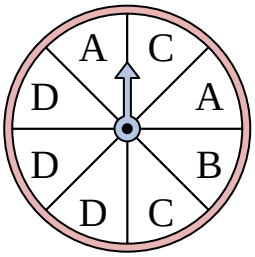

Der Spinner hat eine _____% Chance, auf einem D zu landen.

8)

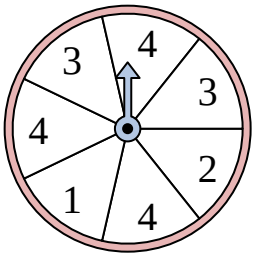

Der Spinner hat eine _____% Chance, auf einem 2 zu landen.

9)

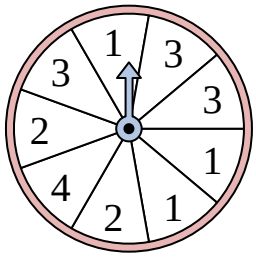

Der Spinner hat eine _____% Chance, auf einem 1 zu landen.

10)

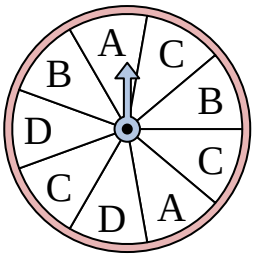

Der Spinner hat eine _____% Chance, auf einem C zu landen.

11)

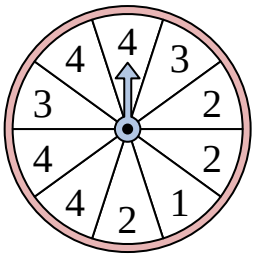

Der Spinner hat eine _____% Chance, auf einem 4 zu landen.

12)

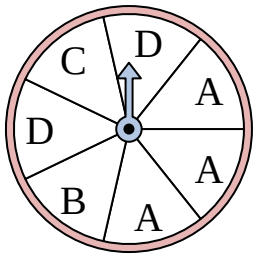

Der Spinner hat eine _____% Chance, auf einem D zu landen.

Antworten

1. 40
2. 14,3
3. 37,5
4. 30
5. 12,5
6. 30
7. 37,5
8. 14,3
9. 33,3
10. 33,3
11. 40
12. 28,6

1-10	92	83	75	67	58	50	42	33	25	17
11-12	8	0								

Bestimmung der prozentualen Spinnerchance Name:

Lösen Sie jedes Problem. Runden Sie Ihre Antwort auf das nächste Zehntel.

1)

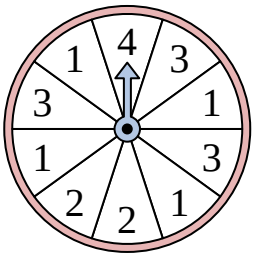

Der Spinner hat eine _____% Chance, auf einem 3 zu landen.

2)

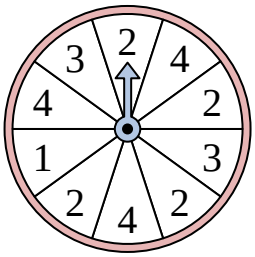

Der Spinner hat eine _____% Chance, auf einem 3 zu landen.

3)

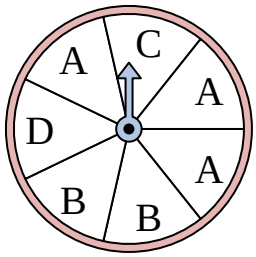

Der Spinner hat eine _____% Chance, auf einem A zu landen.

4)

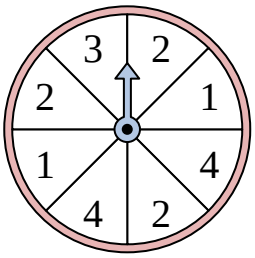

Der Spinner hat eine _____% Chance, auf einem 2 zu landen.

5)

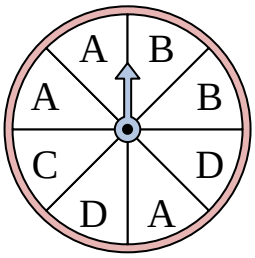

Der Spinner hat eine _____% Chance, auf einem C zu landen.

6)

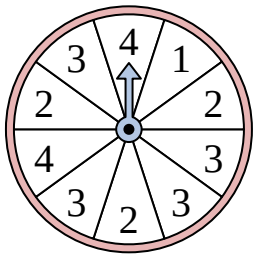

Der Spinner hat eine _____% Chance, auf einem 3 zu landen.

7)

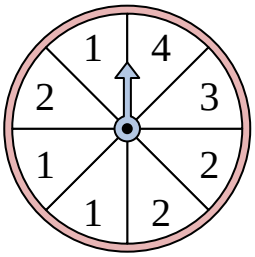

Der Spinner hat eine _____% Chance, auf einem 2 zu landen.

8)

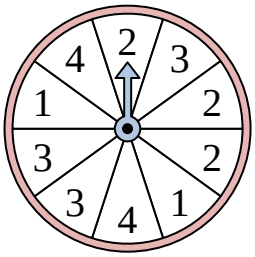

Der Spinner hat eine _____% Chance, auf einem 3 zu landen.

9)

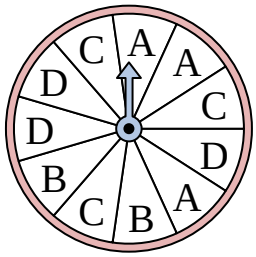

Der Spinner hat eine _____% Chance, auf einem C zu landen.

10)

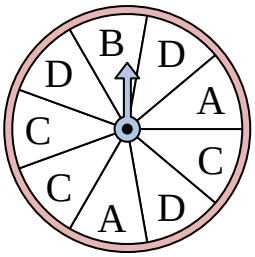

Der Spinner hat eine _____% Chance, auf einem B zu landen.

11)

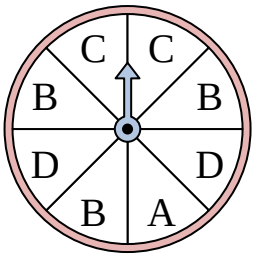

Der Spinner hat eine _____% Chance, auf einem C zu landen.

12)

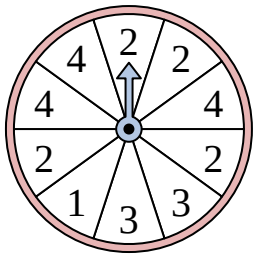

Der Spinner hat eine _____% Chance, auf einem 4 zu landen.

Antworten

1. _____
2. _____
3. _____
4. _____
5. _____
6. _____
7. _____
8. _____
9. _____
10. _____
11. _____
12. _____

1-10	92	83	75	67	58	50	42	33	25	17
11-12	8	0								

Bestimmung der prozentualen Spinnerchance Name: **Lösungsschlüssel**

Lösen Sie jedes Problem. Runden Sie Ihre Antwort auf das nächste Zehntel.

1)

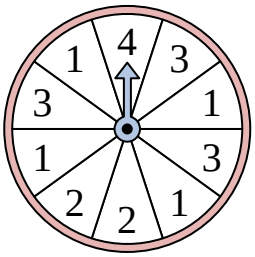

Der Spinner hat eine _____% Chance, auf einem 3 zu landen.

2)

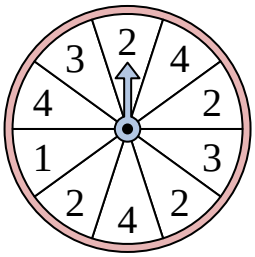

Der Spinner hat eine _____% Chance, auf einem 3 zu landen.

3)

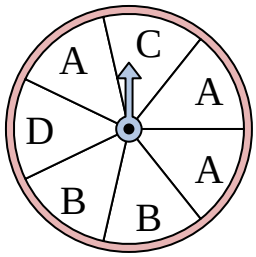

Der Spinner hat eine _____% Chance, auf einem A zu landen.

4)

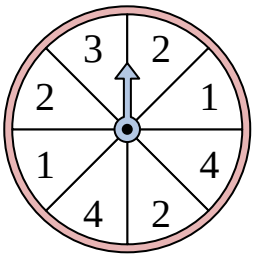

Der Spinner hat eine _____% Chance, auf einem 2 zu landen.

5)

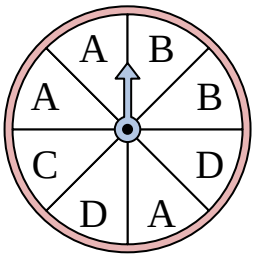

Der Spinner hat eine _____% Chance, auf einem C zu landen.

6)

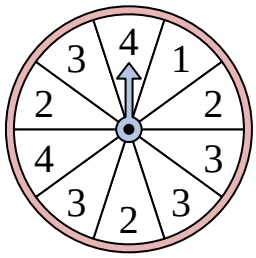

Der Spinner hat eine _____% Chance, auf einem 3 zu landen.

7)

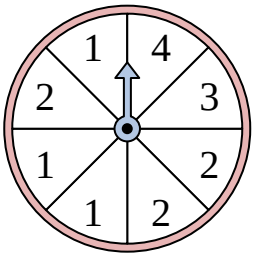

Der Spinner hat eine _____% Chance, auf einem 2 zu landen.

8)

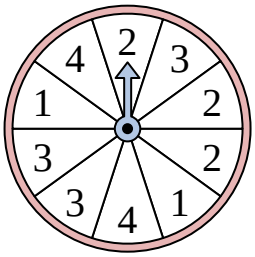

Der Spinner hat eine _____% Chance, auf einem 3 zu landen.

9)

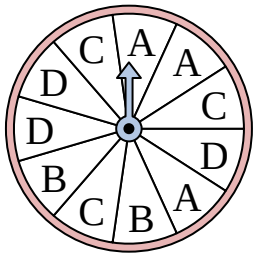

Der Spinner hat eine _____% Chance, auf einem C zu landen.

10)

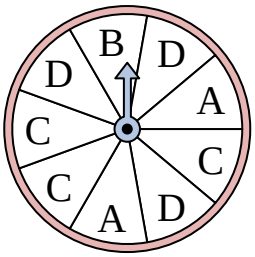

Der Spinner hat eine _____% Chance, auf einem B zu landen.

11)

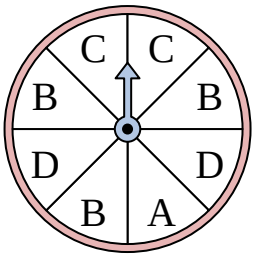

Der Spinner hat eine _____% Chance, auf einem C zu landen.

12)

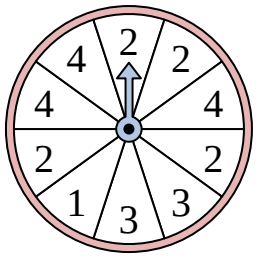

Der Spinner hat eine _____% Chance, auf einem 4 zu landen.

Antworten

1. **30**
2. **20**
3. **42,9**
4. **37,5**
5. **12,5**
6. **40**
7. **37,5**
8. **30**
9. **27,3**
10. **11,1**
11. **25**
12. **30**

1-10	92	83	75	67	58	50	42	33	25	17
11-12	8	0								

Bestimmung der prozentualen Spinnerchance Name:

Lösen Sie jedes Problem. Runden Sie Ihre Antwort auf das nächste Zehntel.

1)

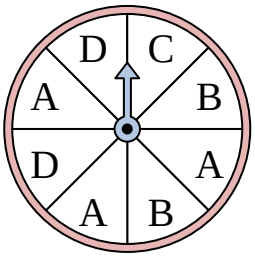

Der Spinner hat eine _____% Chance, auf einem C zu landen.

2)

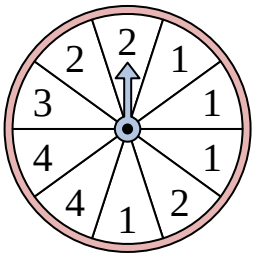

Der Spinner hat eine _____% Chance, auf einem 3 zu landen.

3)

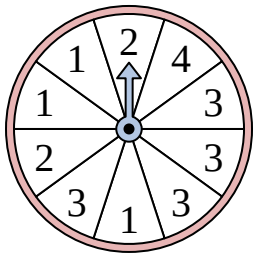

Der Spinner hat eine _____% Chance, auf einem 4 zu landen.

4)

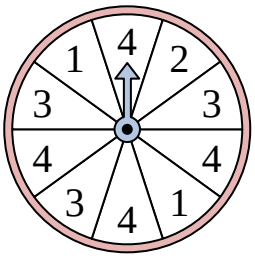

Der Spinner hat eine _____% Chance, auf einem 4 zu landen.

5)

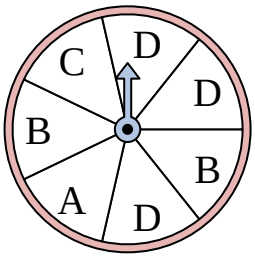

Der Spinner hat eine _____% Chance, auf einem C zu landen.

6)

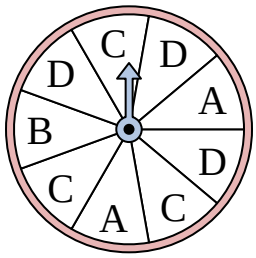

Der Spinner hat eine _____% Chance, auf einem C zu landen.

7)

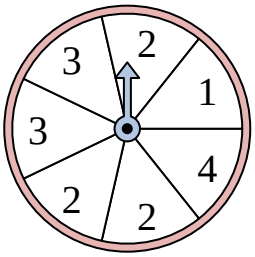

Der Spinner hat eine _____% Chance, auf einem 2 zu landen.

8)

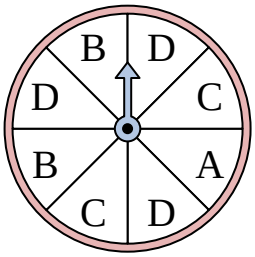

Der Spinner hat eine _____% Chance, auf einem D zu landen.

9)

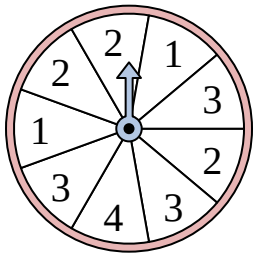

Der Spinner hat eine _____% Chance, auf einem 4 zu landen.

10)

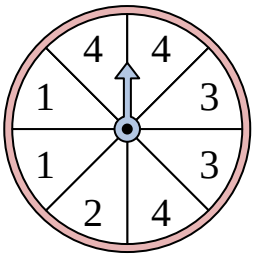

Der Spinner hat eine _____% Chance, auf einem 4 zu landen.

11)

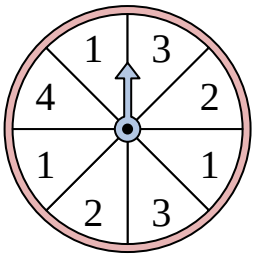

Der Spinner hat eine _____% Chance, auf einem 4 zu landen.

12)

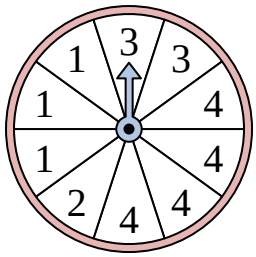

Der Spinner hat eine _____% Chance, auf einem 1 zu landen.

Antworten

1. _____
2. _____
3. _____
4. _____
5. _____
6. _____
7. _____
8. _____
9. _____
10. _____
11. _____
12. _____

1-10	92	83	75	67	58	50	42	33	25	17
11-12	8	0								

Bestimmung der prozentualen Spinnerchance Name: **Lösungsschlüssel**

Lösen Sie jedes Problem. Runden Sie Ihre Antwort auf das nächste Zehntel.

1)

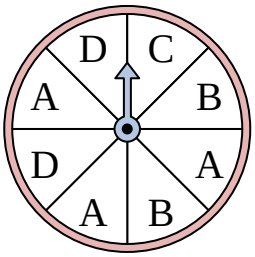

Der Spinner hat eine _____% Chance, auf einem C zu landen.

2)

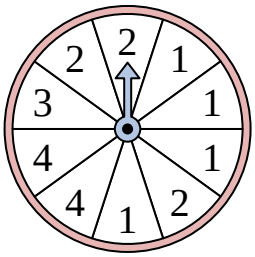

Der Spinner hat eine _____% Chance, auf einem 3 zu landen.

3)

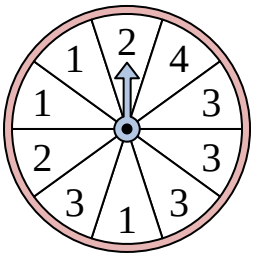

Der Spinner hat eine _____% Chance, auf einem 4 zu landen.

4)

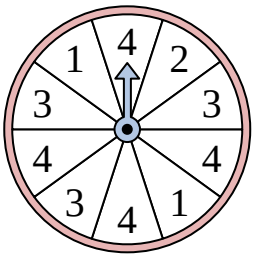

Der Spinner hat eine _____% Chance, auf einem 4 zu landen.

5)

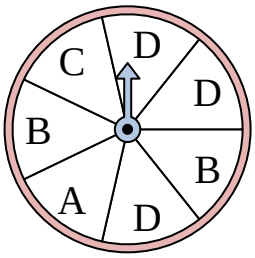

Der Spinner hat eine _____% Chance, auf einem C zu landen.

6)

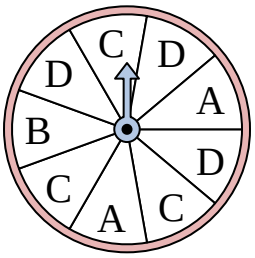

Der Spinner hat eine _____% Chance, auf einem C zu landen.

7)

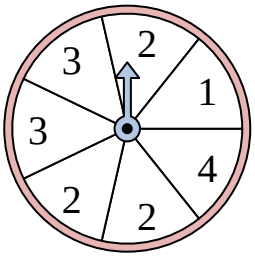

Der Spinner hat eine _____% Chance, auf einem 2 zu landen.

8)

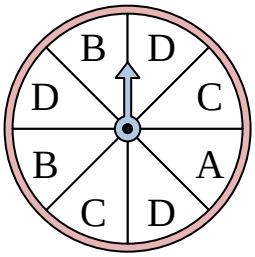

Der Spinner hat eine _____% Chance, auf einem D zu landen.

9)

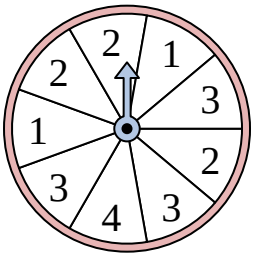

Der Spinner hat eine _____% Chance, auf einem 4 zu landen.

10)

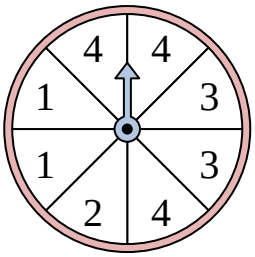

Der Spinner hat eine _____% Chance, auf einem 4 zu landen.

11)

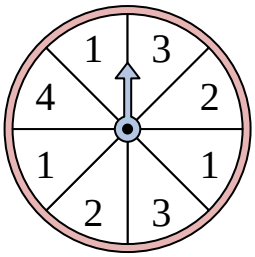

Der Spinner hat eine _____% Chance, auf einem 4 zu landen.

12)

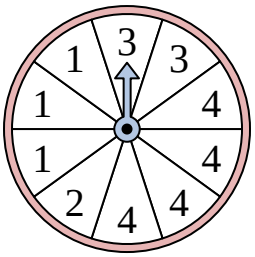

Der Spinner hat eine _____% Chance, auf einem 1 zu landen.

Antworten

1. 12,5
2. 10
3. 10
4. 40
5. 14,3
6. 33,3
7. 42,9
8. 37,5
9. 11,1
10. 37,5
11. 12,5
12. 30

1-10	92	83	75	67	58	50	42	33	25	17
11-12	8	0								

Bestimmung der prozentualen Spinnerchance Name:

Lösen Sie jedes Problem. Runden Sie Ihre Antwort auf das nächste Zehntel.

1)

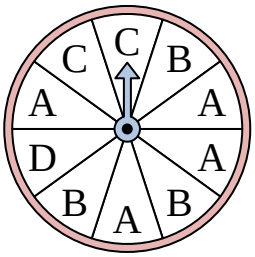

Der Spinner hat eine _____% Chance, auf einem B zu landen.

2)

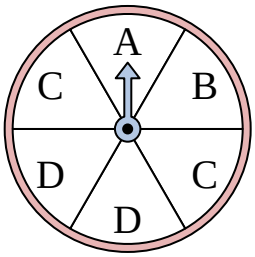

Der Spinner hat eine _____% Chance, auf einem B zu landen.

3)

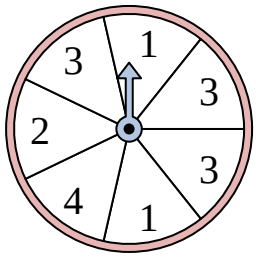

Der Spinner hat eine _____% Chance, auf einem 2 zu landen.

4)

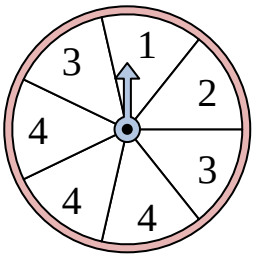

Der Spinner hat eine _____% Chance, auf einem 4 zu landen.

5)



Der Spinner hat eine _____% Chance, auf einem 2 zu landen.

6)

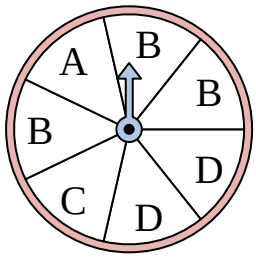

Der Spinner hat eine _____% Chance, auf einem C zu landen.

7)

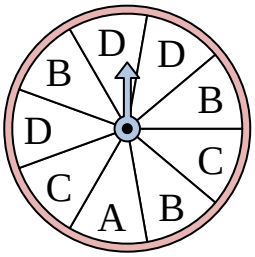

Der Spinner hat eine _____% Chance, auf einem A zu landen.

8)

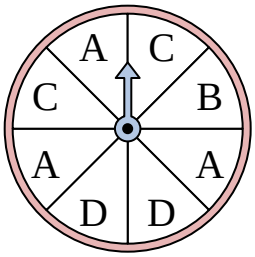

Der Spinner hat eine _____% Chance, auf einem C zu landen.

9)

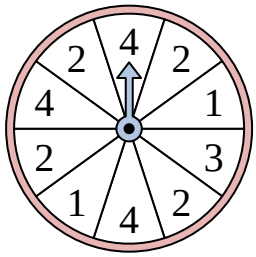

Der Spinner hat eine _____% Chance, auf einem 2 zu landen.

10)

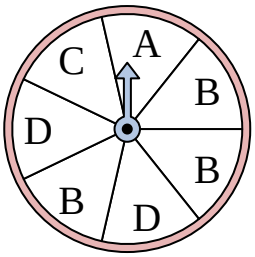

Der Spinner hat eine _____% Chance, auf einem C zu landen.

11)

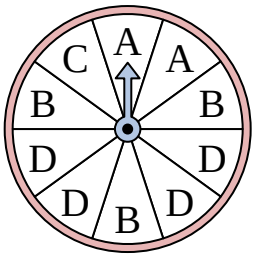

Der Spinner hat eine _____% Chance, auf einem A zu landen.

12)



Der Spinner hat eine _____% Chance, auf einem 2 zu landen.

Antworten

1. _____
2. _____
3. _____
4. _____
5. _____
6. _____
7. _____
8. _____
9. _____
10. _____
11. _____
12. _____

1-10	92	83	75	67	58	50	42	33	25	17
11-12	8	0								

Bestimmung der prozentualen Spinnerchance Name: **Lösungsschlüssel**

Lösen Sie jedes Problem. Runden Sie Ihre Antwort auf das nächste Zehntel.

1)

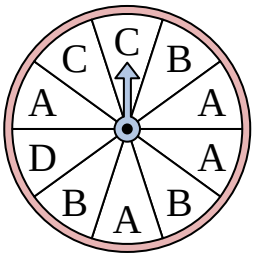

Der Spinner hat eine _____% Chance, auf einem B zu landen.

2)

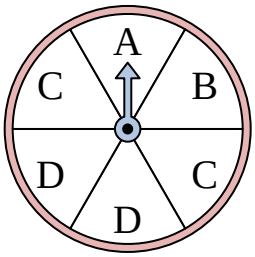

Der Spinner hat eine _____% Chance, auf einem B zu landen.

3)

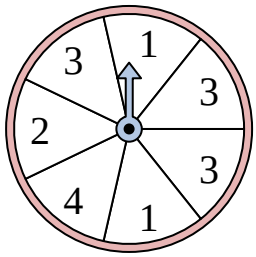

Der Spinner hat eine _____% Chance, auf einem 2 zu landen.

4)

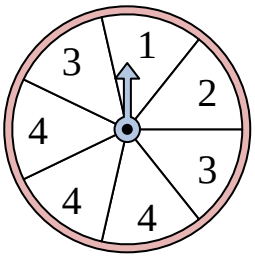

Der Spinner hat eine _____% Chance, auf einem 4 zu landen.

5)



Der Spinner hat eine _____% Chance, auf einem 2 zu landen.

6)

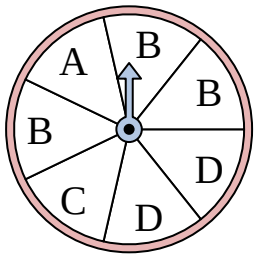

Der Spinner hat eine _____% Chance, auf einem C zu landen.

7)

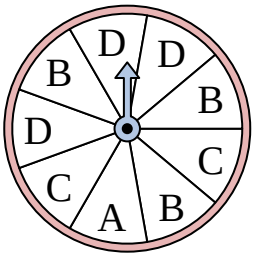

Der Spinner hat eine _____% Chance, auf einem A zu landen.

8)

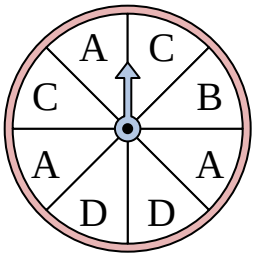

Der Spinner hat eine _____% Chance, auf einem C zu landen.

9)

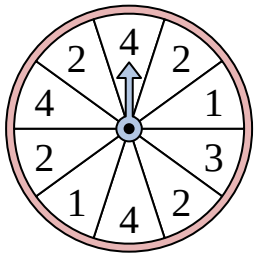

Der Spinner hat eine _____% Chance, auf einem 2 zu landen.

10)

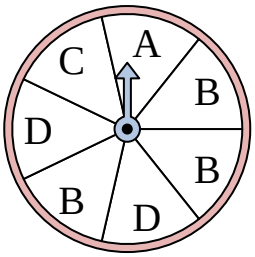

Der Spinner hat eine _____% Chance, auf einem C zu landen.

11)

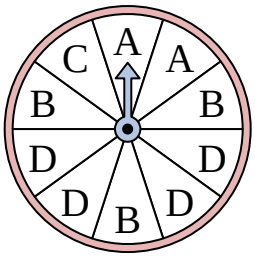

Der Spinner hat eine _____% Chance, auf einem A zu landen.

12)



Der Spinner hat eine _____% Chance, auf einem 2 zu landen.

Antworten

1. **30**
2. **16,7**
3. **14,3**
4. **42,9**
5. **30**
6. **14,3**
7. **11,1**
8. **25**
9. **40**
10. **14,3**
11. **20**
12. **18,2**

1-10	92	83	75	67	58	50	42	33	25	17
11-12	8	0								

Bestimmung der prozentualen Spinnerchance Name:

Lösen Sie jedes Problem. Runden Sie Ihre Antwort auf das nächste Zehntel.

1)

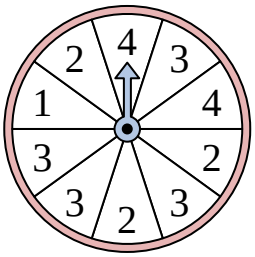

Der Spinner hat eine _____% Chance, auf einem 2 zu landen.

2)

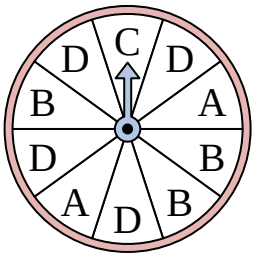

Der Spinner hat eine _____% Chance, auf einem D zu landen.

3)

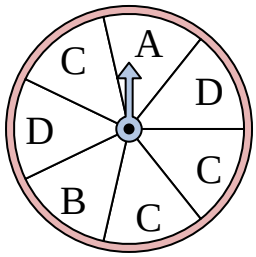

Der Spinner hat eine _____% Chance, auf einem C zu landen.

4)

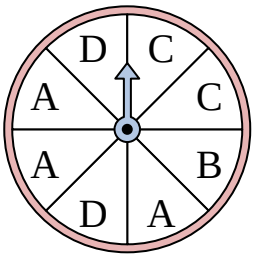

Der Spinner hat eine _____% Chance, auf einem A zu landen.

5)

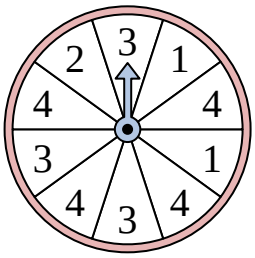

Der Spinner hat eine _____% Chance, auf einem 2 zu landen.

6)

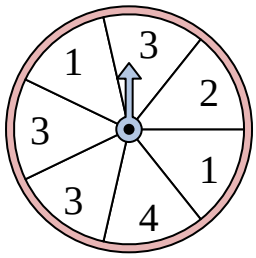

Der Spinner hat eine _____% Chance, auf einem 2 zu landen.

7)

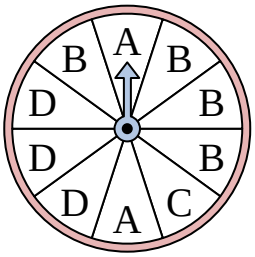

Der Spinner hat eine _____% Chance, auf einem B zu landen.

8)

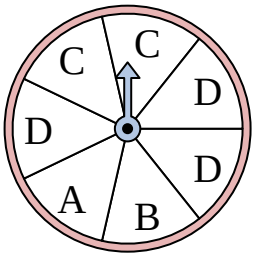

Der Spinner hat eine _____% Chance, auf einem C zu landen.

9)

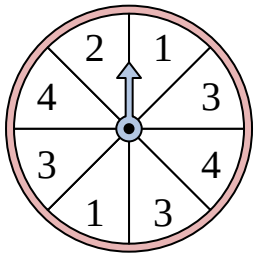

Der Spinner hat eine _____% Chance, auf einem 1 zu landen.

10)

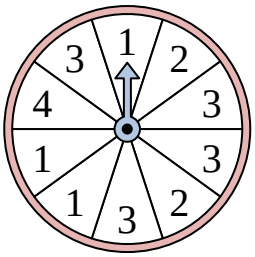

Der Spinner hat eine _____% Chance, auf einem 4 zu landen.

11)

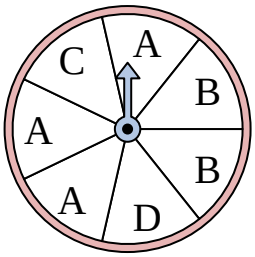

Der Spinner hat eine _____% Chance, auf einem D zu landen.

12)

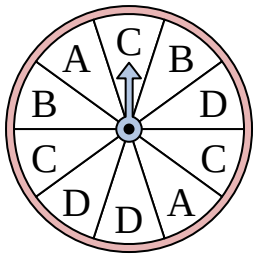

Der Spinner hat eine _____% Chance, auf einem C zu landen.

Antworten

1. _____
2. _____
3. _____
4. _____
5. _____
6. _____
7. _____
8. _____
9. _____
10. _____
11. _____
12. _____

1-10	92	83	75	67	58	50	42	33	25	17
11-12	8	0								

Bestimmung der prozentualen Spinnerchance Name: **Lösungsschlüssel**

Lösen Sie jedes Problem. Runden Sie Ihre Antwort auf das nächste Zehntel.

1)

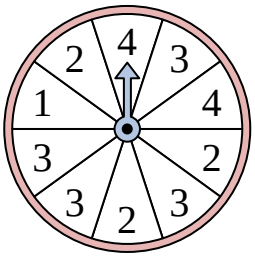

Der Spinner hat eine _____% Chance, auf einem 2 zu landen.

2)

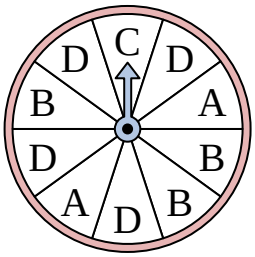

Der Spinner hat eine _____% Chance, auf einem D zu landen.

3)

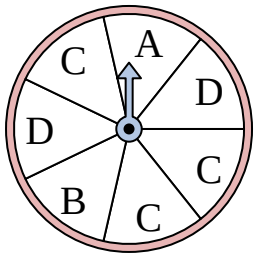

Der Spinner hat eine _____% Chance, auf einem C zu landen.

4)

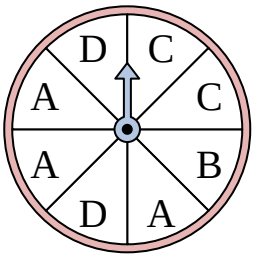

Der Spinner hat eine _____% Chance, auf einem A zu landen.

5)

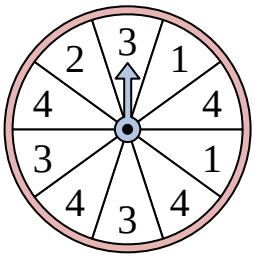

Der Spinner hat eine _____% Chance, auf einem 2 zu landen.

6)

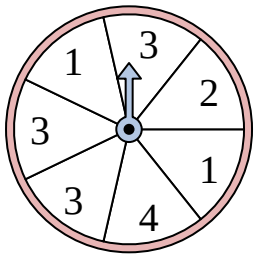

Der Spinner hat eine _____% Chance, auf einem 2 zu landen.

7)

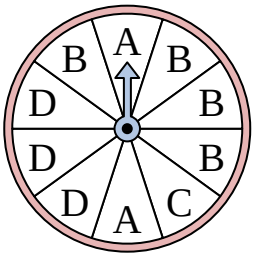

Der Spinner hat eine _____% Chance, auf einem B zu landen.

8)

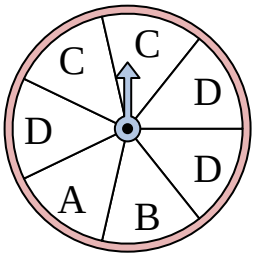

Der Spinner hat eine _____% Chance, auf einem C zu landen.

9)

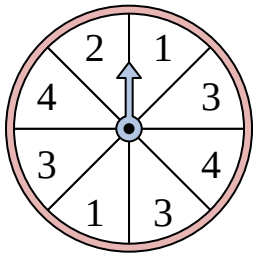

Der Spinner hat eine _____% Chance, auf einem 1 zu landen.

10)

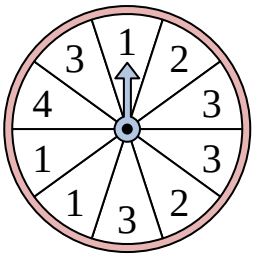

Der Spinner hat eine _____% Chance, auf einem 4 zu landen.

11)

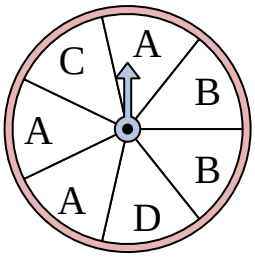

Der Spinner hat eine _____% Chance, auf einem D zu landen.

12)

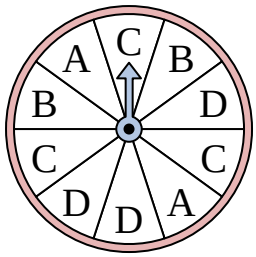

Der Spinner hat eine _____% Chance, auf einem C zu landen.

Antworten

1. 30
2. 40
3. 42,9
4. 37,5
5. 10
6. 14,3
7. 40
8. 28,6
9. 25
10. 10
11. 14,3
12. 30

1-10	92	83	75	67	58	50	42	33	25	17
11-12	8	0								

Bestimmung der prozentualen Spinnerchance Name:

Lösen Sie jedes Problem. Runden Sie Ihre Antwort auf das nächste Zehntel.

1)

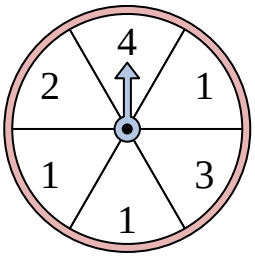

Der Spinner hat eine _____% Chance, auf einem 2 zu landen.

2)

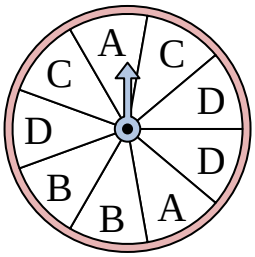

Der Spinner hat eine _____% Chance, auf einem B zu landen.

3)

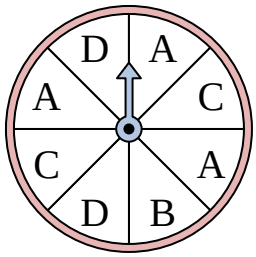

Der Spinner hat eine _____% Chance, auf einem C zu landen.

4)

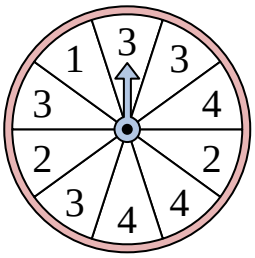

Der Spinner hat eine _____% Chance, auf einem 3 zu landen.

5)

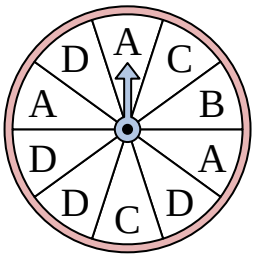

Der Spinner hat eine _____% Chance, auf einem D zu landen.

6)

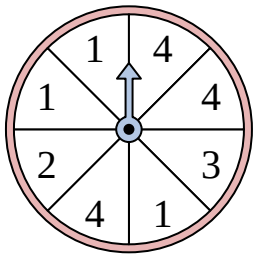

Der Spinner hat eine _____% Chance, auf einem 4 zu landen.

7)

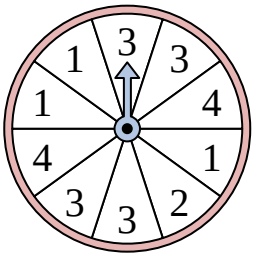

Der Spinner hat eine _____% Chance, auf einem 4 zu landen.

8)

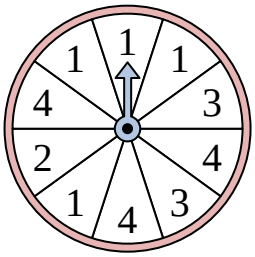

Der Spinner hat eine _____% Chance, auf einem 1 zu landen.

9)

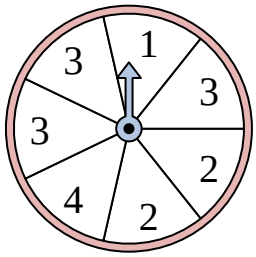

Der Spinner hat eine _____% Chance, auf einem 3 zu landen.

10)

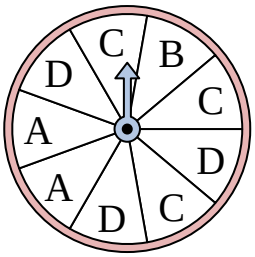

Der Spinner hat eine _____% Chance, auf einem C zu landen.

11)

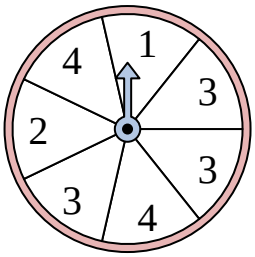

Der Spinner hat eine _____% Chance, auf einem 2 zu landen.

12)

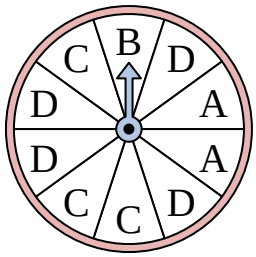

Der Spinner hat eine _____% Chance, auf einem D zu landen.

Antworten

1. _____
2. _____
3. _____
4. _____
5. _____
6. _____
7. _____
8. _____
9. _____
10. _____
11. _____
12. _____

1-10	92	83	75	67	58	50	42	33	25	17
11-12	8	0								

Bestimmung der prozentualen Spinnerchance Name: **Lösungsschlüssel**

Lösen Sie jedes Problem. Runden Sie Ihre Antwort auf das nächste Zehntel.

1)

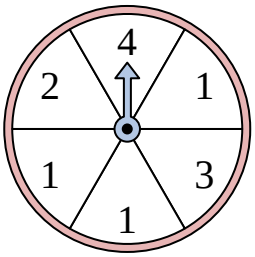

Der Spinner hat eine _____% Chance, auf einem 2 zu landen.

2)

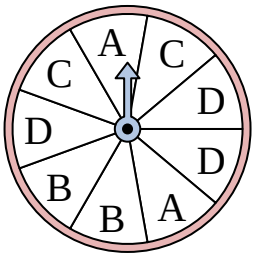

Der Spinner hat eine _____% Chance, auf einem B zu landen.

3)

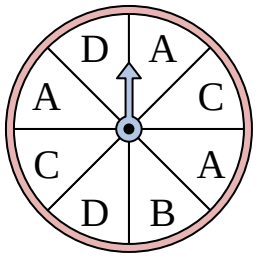

Der Spinner hat eine _____% Chance, auf einem C zu landen.

4)

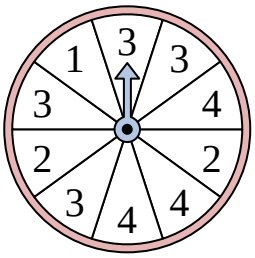

Der Spinner hat eine _____% Chance, auf einem 3 zu landen.

5)

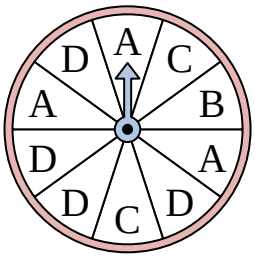

Der Spinner hat eine _____% Chance, auf einem D zu landen.

6)

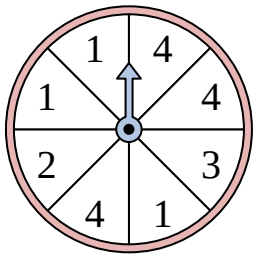

Der Spinner hat eine _____% Chance, auf einem 4 zu landen.

7)

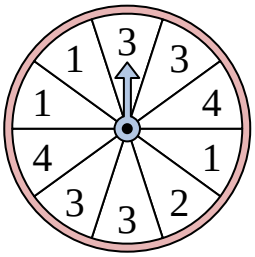

Der Spinner hat eine _____% Chance, auf einem 4 zu landen.

8)

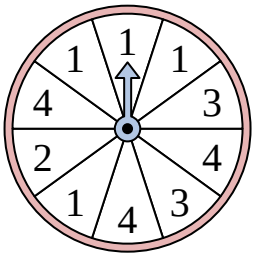

Der Spinner hat eine _____% Chance, auf einem 1 zu landen.

9)

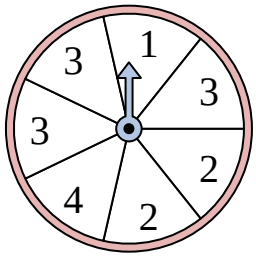

Der Spinner hat eine _____% Chance, auf einem 3 zu landen.

10)

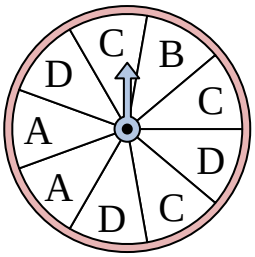

Der Spinner hat eine _____% Chance, auf einem C zu landen.

11)

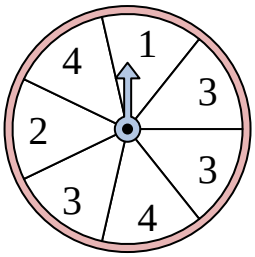

Der Spinner hat eine _____% Chance, auf einem 2 zu landen.

12)

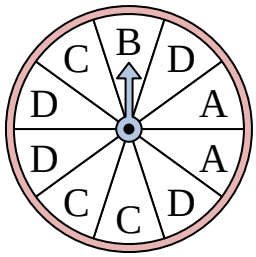

Der Spinner hat eine _____% Chance, auf einem D zu landen.

Antworten

1. **16,7**
2. **22,2**
3. **25**
4. **40**
5. **40**
6. **37,5**
7. **20**
8. **40**
9. **42,9**
10. **33,3**
11. **14,3**
12. **40**

1-10	92	83	75	67	58	50	42	33	25	17
11-12	8	0								

Bestimmung der prozentualen Spinnerchance Name:

Lösen Sie jedes Problem. Runden Sie Ihre Antwort auf das nächste Zehntel.

1)

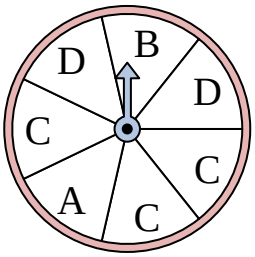

Der Spinner hat eine _____% Chance, auf einem D zu landen.

2)

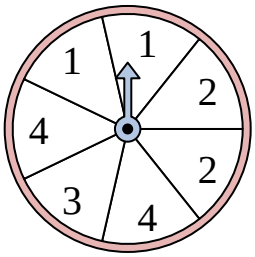

Der Spinner hat eine _____% Chance, auf einem 3 zu landen.

3)

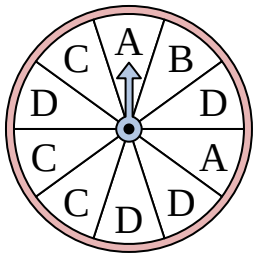

Der Spinner hat eine _____% Chance, auf einem B zu landen.

4)

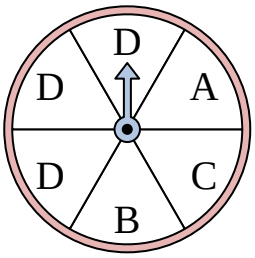

Der Spinner hat eine _____% Chance, auf einem B zu landen.

5)

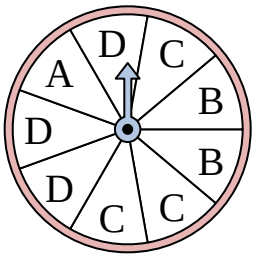

Der Spinner hat eine _____% Chance, auf einem C zu landen.

6)

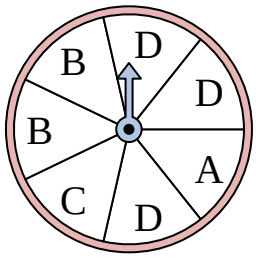

Der Spinner hat eine _____% Chance, auf einem B zu landen.

7)

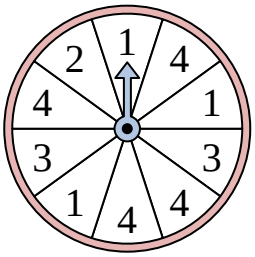

Der Spinner hat eine _____% Chance, auf einem 4 zu landen.

8)

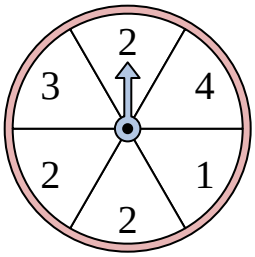

Der Spinner hat eine _____% Chance, auf einem 1 zu landen.

9)

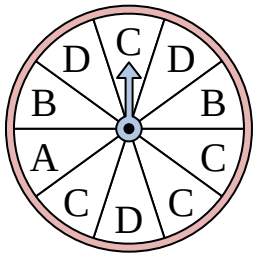

Der Spinner hat eine _____% Chance, auf einem C zu landen.

10)

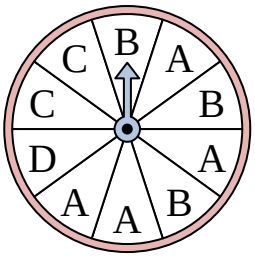

Der Spinner hat eine _____% Chance, auf einem D zu landen.

11)

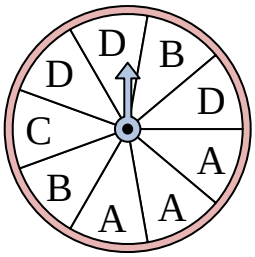

Der Spinner hat eine _____% Chance, auf einem B zu landen.

12)

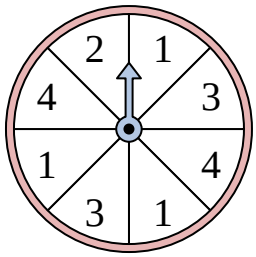

Der Spinner hat eine _____% Chance, auf einem 4 zu landen.

Antworten

1. _____
2. _____
3. _____
4. _____
5. _____
6. _____
7. _____
8. _____
9. _____
10. _____
11. _____
12. _____

1-10	92	83	75	67	58	50	42	33	25	17
11-12	8	0								

Bestimmung der prozentualen Spinnerchance Name: **Lösungsschlüssel**

Lösen Sie jedes Problem. Runden Sie Ihre Antwort auf das nächste Zehntel.

1)

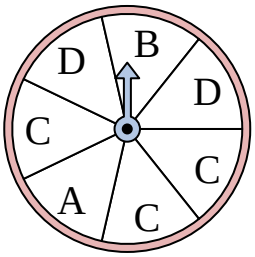

Der Spinner hat eine _____% Chance, auf einem D zu landen.

2)

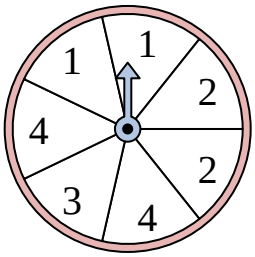

Der Spinner hat eine _____% Chance, auf einem 3 zu landen.

3)

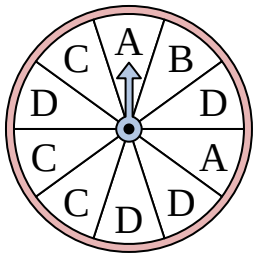

Der Spinner hat eine _____% Chance, auf einem B zu landen.

4)

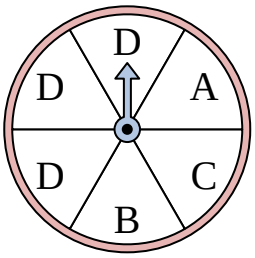

Der Spinner hat eine _____% Chance, auf einem B zu landen.

5)

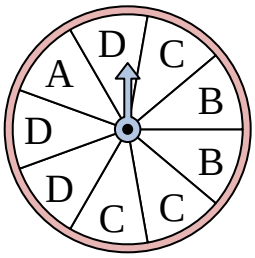

Der Spinner hat eine _____% Chance, auf einem C zu landen.

6)

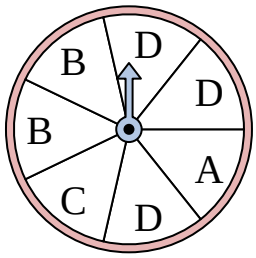

Der Spinner hat eine _____% Chance, auf einem B zu landen.

7)

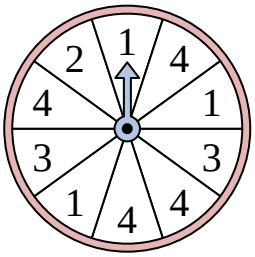

Der Spinner hat eine _____% Chance, auf einem 4 zu landen.

8)

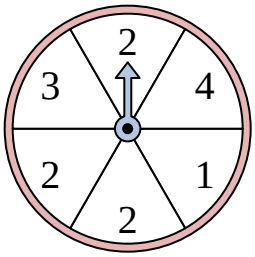

Der Spinner hat eine _____% Chance, auf einem 1 zu landen.

9)

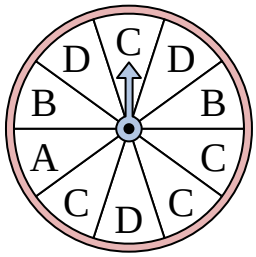

Der Spinner hat eine _____% Chance, auf einem C zu landen.

10)

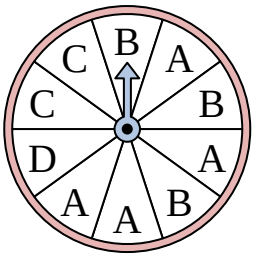

Der Spinner hat eine _____% Chance, auf einem D zu landen.

11)

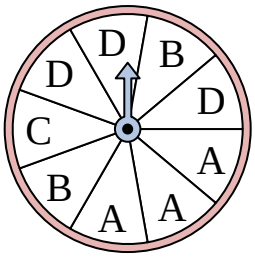

Der Spinner hat eine _____% Chance, auf einem B zu landen.

12)

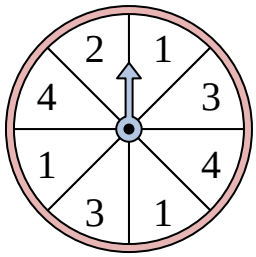

Der Spinner hat eine _____% Chance, auf einem 4 zu landen.

Antworten

1. **28,6**
2. **14,3**
3. **10**
4. **16,7**
5. **33,3**
6. **28,6**
7. **40**
8. **16,7**
9. **40**
10. **10**
11. **22,2**
12. **25**

1-10	92	83	75	67	58	50	42	33	25	17
11-12	8	0								