Addieren und Subtrahieren

Name:

Stelle fest, welche Regel die Funktionsmaschine anwendet.

1) 39 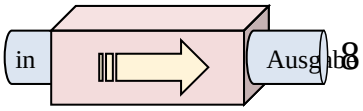

8

A. Subtrahieren von 34
B. 28 hinzufügen
C. 26 hinzufügen
D. Subtrahieren von 31

2) 35 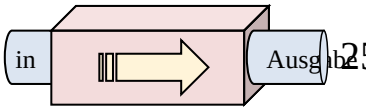

25

A. Subtrahieren von 6
B. Subtrahieren von 14
C. Subtrahieren von 10
D. 9 hinzufügen

3) 20 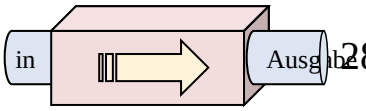

28

A. 3 hinzufügen
B. 4 hinzufügen
C. 9 hinzufügen
D. 8 hinzufügen

4) 15 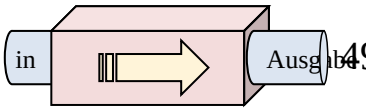

49

A. Subtrahieren von 36
B. 29 hinzufügen
C. 34 hinzufügen
D. 31 hinzufügen

5) 7 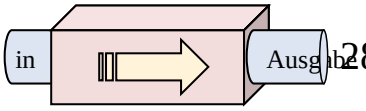

28

A. Subtrahieren von 20
B. 23 hinzufügen
C. 20 hinzufügen
D. 21 hinzufügen

6) 24 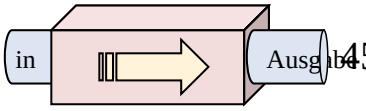

45

A. 17 hinzufügen
B. Subtrahieren von 22
C. 18 hinzufügen
D. 21 hinzufügen

7) 20 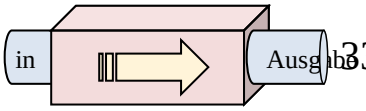

33

A. 9 hinzufügen
B. 15 hinzufügen
C. 17 hinzufügen
D. 13 hinzufügen

8) 20 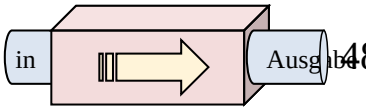

48

A. 28 hinzufügen
B. Subtrahieren von 27
C. 25 hinzufügen
D. 29 hinzufügen

9) 46 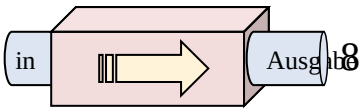

8

A. Subtrahieren von 42
B. Subtrahieren von 40
C. 34 hinzufügen
D. Subtrahieren von 38

10) 35 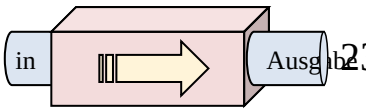

23

A. Subtrahieren von 10
B. Subtrahieren von 12
C. 17 hinzufügen
D. 8 hinzufügen

Antworten

1. _____
2. _____
3. _____
4. _____
5. _____
6. _____
7. _____
8. _____
9. _____
10. _____

1-10	90	80	70	60	50	40	30	20	10	0

Stelle fest, welche Regel die Funktionsmaschine anwendet.

1)

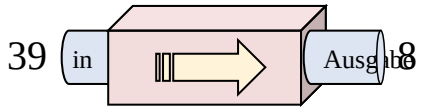

A. Subtrahieren von 34
B. 28 hinzufügen
C. 26 hinzufügen
D. Subtrahieren von 31

2)

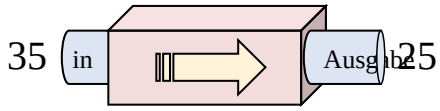

A. Subtrahieren von 6
B. Subtrahieren von 14
C. Subtrahieren von 10
D. 9 hinzufügen

3)

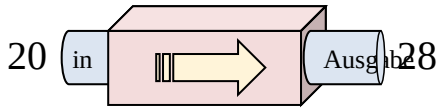

A. 3 hinzufügen
B. 4 hinzufügen
C. 9 hinzufügen
D. 8 hinzufügen

4)

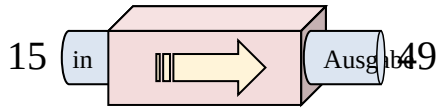

A. Subtrahieren von 36
B. 29 hinzufügen
C. 34 hinzufügen
D. 31 hinzufügen

5)

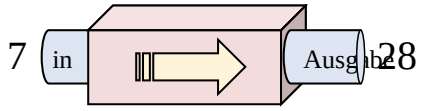

A. Subtrahieren von 20
B. 23 hinzufügen
C. 20 hinzufügen
D. 21 hinzufügen

6)

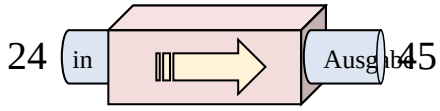

A. 17 hinzufügen
B. Subtrahieren von 22
C. 18 hinzufügen
D. 21 hinzufügen

7)

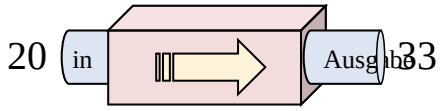

A. 9 hinzufügen
B. 15 hinzufügen
C. 17 hinzufügen
D. 13 hinzufügen

8)

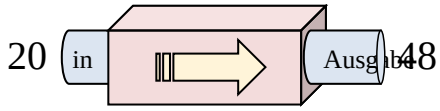

A. 28 hinzufügen
B. Subtrahieren von 27
C. 25 hinzufügen
D. 29 hinzufügen

9)

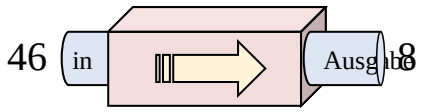

A. Subtrahieren von 42
B. Subtrahieren von 40
C. 34 hinzufügen
D. Subtrahieren von 38

10)

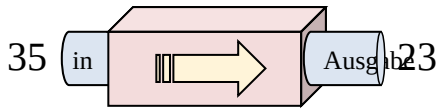

A. Subtrahieren von 10
B. Subtrahieren von 12
C. 17 hinzufügen
D. 8 hinzufügen

Antworten

1. D
2. C
3. D
4. C
5. D
6. D
7. D
8. A
9. D
10. B

1-10	90	80	70	60	50	40	30	20	10	0