Identifizieren von Münzen

Name:

Zählen Sie die Anzahl der Viertel (25¢), Dimes (10¢), Nickels (5¢) und Pennies (1¢).

Bsp) 

1)

2)

3)

4)

5)

6) 

7)

8)

9)

10)

Antworten

Bsp.	3	2	1	3
1.				
2.				
3.				
4.				
5.				
6.				
7.				
8.				
9.				
10.				

1-10	90	80	70	60	50	40	30	20	10	0

Identifizieren von Münzen

Name: **Lösungsschlüssel**

Zählen Sie die Anzahl der Viertel (25¢), Dimes (10¢), Nickels (5¢) und Pennies (1¢).

Bsp)



1)

2)



3)

4)

5)

6)

7)

8)

9)

10)

Antworten

Bsp.	3	2	1	3
1.	2	3	3	1
2.	1	3	3	2
3.	2	2	2	3
4.	3	2	2	2
5.	2	4	1	2
6.	2	2	3	2
7.	2	2	3	2
8.	2	1	3	3
9.	2	4	1	2
10.	1	3	1	4

1-10	90	80	70	60	50	40	30	20	10	0