Abmessen und Darstellen Name:

**Messe jeden Streifen ab (in cm) und stelle die Ergebnisse dann in einem Liniendiagramm dar.**

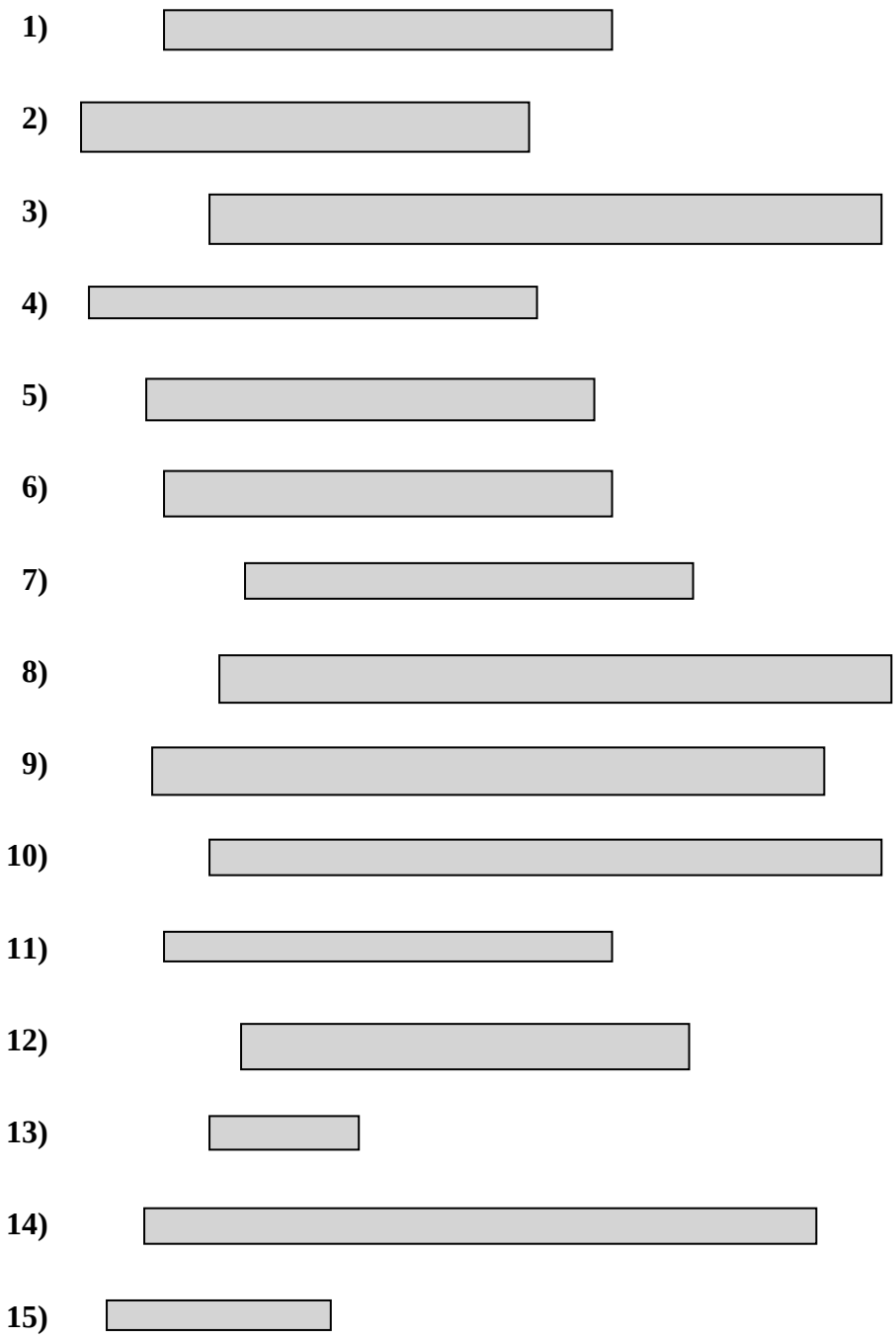


**Line Plot**

**Antworten**

1. _____
2. _____
3. _____
4. _____
5. _____
6. _____
7. _____
8. _____
9. _____
10. _____
11. _____
12. _____
13. _____
14. _____
15. _____

| | | | | | | | | | | |
|---|---|---|---|---|---|---|---|---|---|---|
| 1-10 | 93 | 87 | 80 | 73 | 67 | 60 | 53 | 47 | 40 | 33 |
| 11-15 | 27 | 20 | 13 | 7 | 0 | | | | | |

**Messe jeden Streifen ab (in cm) und stelle die Ergebnisse dann in einem Liniendiagramm dar.**

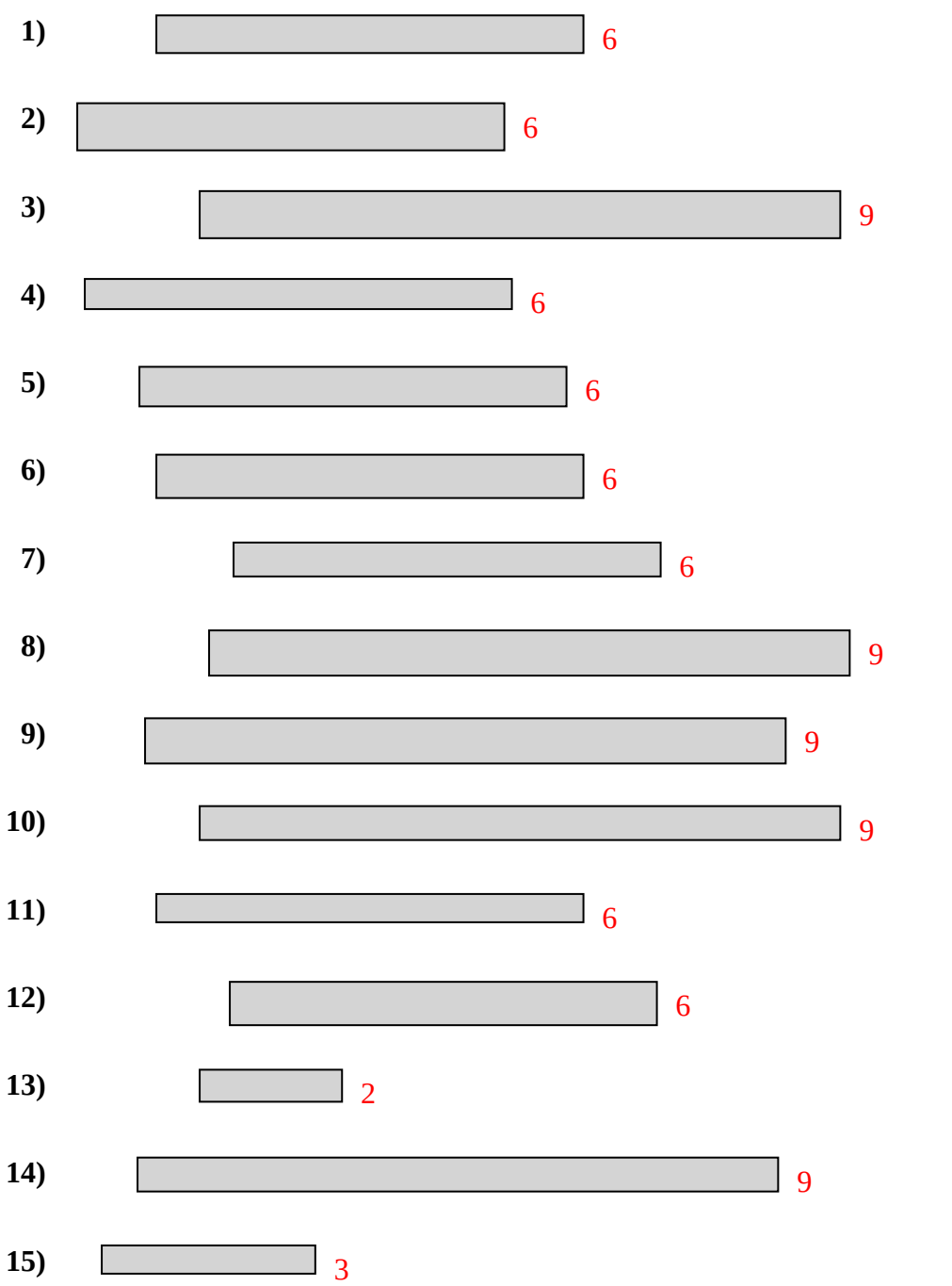


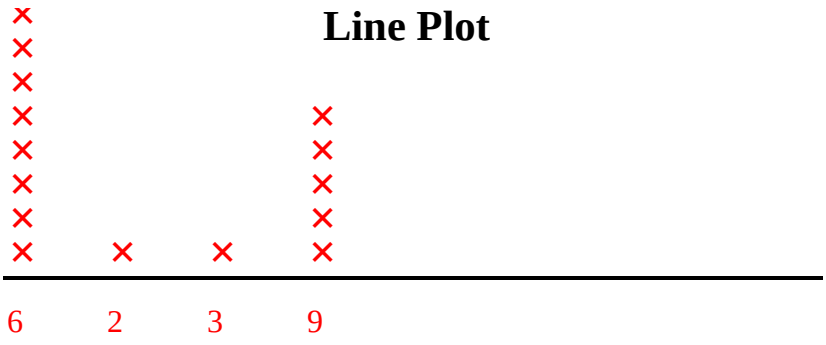


**Antworten**

1. 6
2. 6
3. 9
4. 6
5. 6
6. 6
7. 6
8. 9
9. 9
10. 9
11. 6
12. 6
13. 2
14. 9
15. 3



| | | | | | | | | | | |
|---|---|---|---|---|---|---|---|---|---|---|
| 1-10 | 93 | 87 | 80 | 73 | 67 | 60 | 53 | 47 | 40 | 33 |
| 11-15 | 27 | 20 | 13 | 7 | 0 | | | | | |