Bruch-Lage auf dem Zahlenstrahl

Name:

Löse jede Aufgabe.

Bsp)

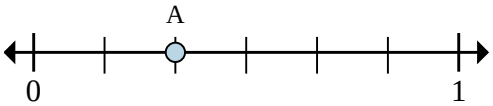

a. In wie viele Teile ist dieser Zahlenstrahl aufgeteilt?

b. Was ist die Lage von A (geschrieben als Bruch)?

1)

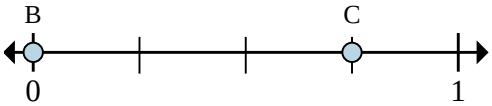

a. Was ist der Wert von 1 als Bruch auf diesem Zahlenstrahl?

b. Wie weit ist es auf diesem Zahlenstrahl von B nach C (geschrieben als Bruch)?

2)

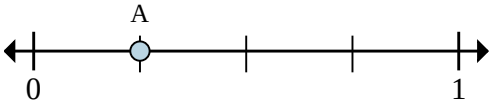

a. In wie viele Teile ist dieser Zahlenstrahl aufgeteilt?

b. Was ist die Lage von A (geschrieben als Bruch)?

3)

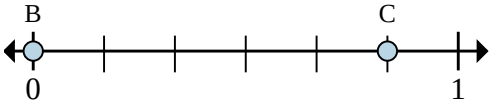

a. Was ist der Wert von 1 als Bruch auf diesem Zahlenstrahl?

b. Wie weit ist es auf diesem Zahlenstrahl von B nach C (geschrieben als Bruch)?

4)

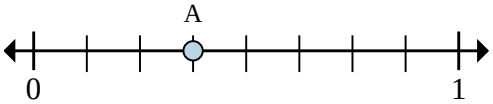

a. In wie viele Teile ist dieser Zahlenstrahl aufgeteilt?

b. Was ist die Lage von A (geschrieben als Bruch)?

5)

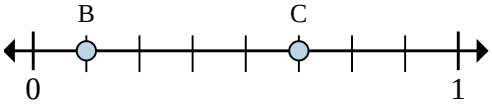

a. Was ist der Wert von 0 als Bruch auf diesem Zahlenstrahl?

b. Wie weit ist es auf diesem Zahlenstrahl von B nach C (geschrieben als Bruch)?

6)

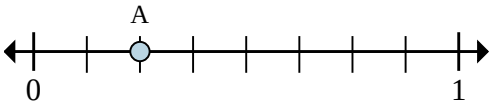

a. In wie viele Teile ist dieser Zahlenstrahl aufgeteilt?

b. Was ist die Lage von A (geschrieben als Bruch)?

7)

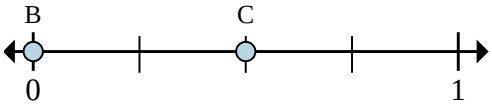

a. Was ist der Wert von 1 als Bruch auf diesem Zahlenstrahl?

b. Wie weit ist es auf diesem Zahlenstrahl von B nach C (geschrieben als Bruch)?

Antworten

Bsp.	6	$^{2}/_{6}$
1.		
2.		
3.		
4.		
5.		
6.		
7.		

1-7	86	71	57	43	29	14	0

Löse jede Aufgabe.

Bsp)

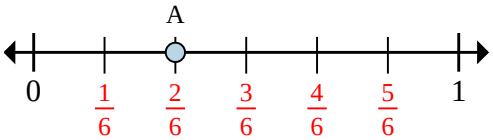

a. In wie viele Teile ist dieser Zahlenstrahl aufgeteilt?

b. Was ist die Lage von A (geschrieben als Bruch)?

1)

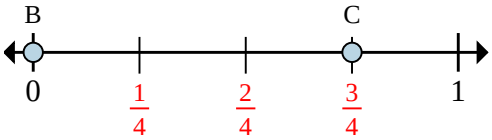

a. Was ist der Wert von 1 als Bruch auf diesem Zahlenstrahl?

b. Wie weit ist es auf diesem Zahlenstrahl von B nach C (geschrieben als Bruch)?

2)

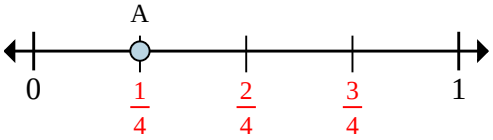

a. In wie viele Teile ist dieser Zahlenstrahl aufgeteilt?

b. Was ist die Lage von A (geschrieben als Bruch)?

3)

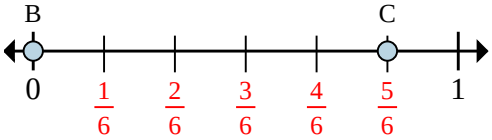

a. Was ist der Wert von 1 als Bruch auf diesem Zahlenstrahl?

b. Wie weit ist es auf diesem Zahlenstrahl von B nach C (geschrieben als Bruch)?

4)

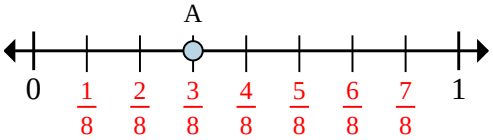

a. In wie viele Teile ist dieser Zahlenstrahl aufgeteilt?

b. Was ist die Lage von A (geschrieben als Bruch)?

5)

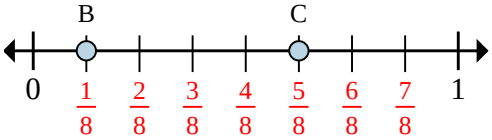

a. Was ist der Wert von 0 als Bruch auf diesem Zahlenstrahl?

b. Wie weit ist es auf diesem Zahlenstrahl von B nach C (geschrieben als Bruch)?

6)

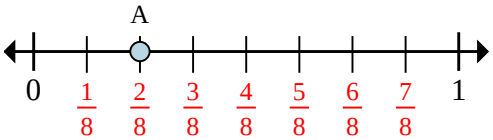

a. In wie viele Teile ist dieser Zahlenstrahl aufgeteilt?

b. Was ist die Lage von A (geschrieben als Bruch)?

7)

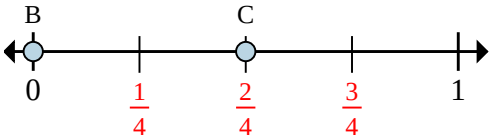

a. Was ist der Wert von 1 als Bruch auf diesem Zahlenstrahl?

b. Wie weit ist es auf diesem Zahlenstrahl von B nach C (geschrieben als Bruch)?

Antworten

Bsp.	6	2/6
1.	4/4	3/4
2.	4	1/4
3.	6/6	5/6
4.	8	3/8
5.	0/8	4/8
6.	8	2/8
7.	4/4	2/4

1-7	86	71	57	43	29	14	0