Brüche identifizieren

Name:

**Stelle fest, welcher Buchstabe jeden Bruch darstellt.**

**1)** Durch welche Möglichkeit wird $^{2}/_{3}$ dargestellt?

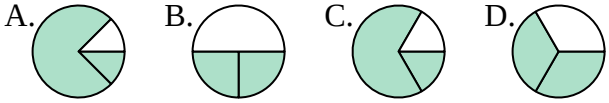


**2)** Durch welche Möglichkeit wird $^{2}/_{4}$ dargestellt?

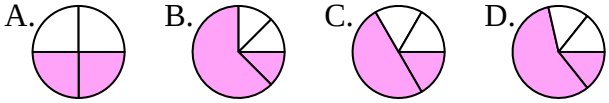


**3)** Durch welche Möglichkeit wird $^{4}/_{6}$ dargestellt?

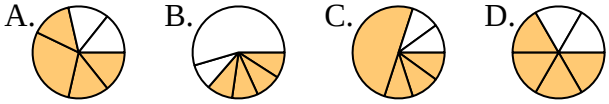


**4)** Durch welche Möglichkeit wird $^{7}/_{8}$ dargestellt?

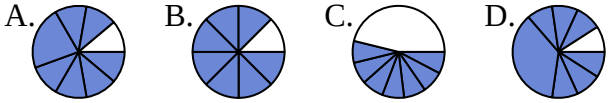


**5)** Durch welche Möglichkeit wird $^{1}/_{3}$ dargestellt?

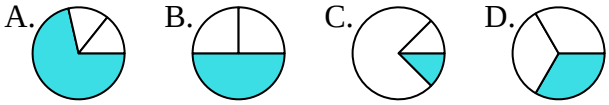


**6)** Durch welche Möglichkeit wird $^{3}/_{4}$ dargestellt?

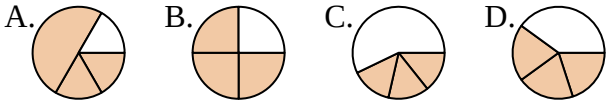


**7)** Durch welche Möglichkeit wird $^{1}/_{6}$ dargestellt?

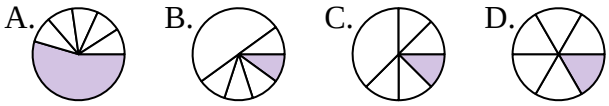


**8)** Durch welche Möglichkeit wird $^{3}/_{8}$ dargestellt?

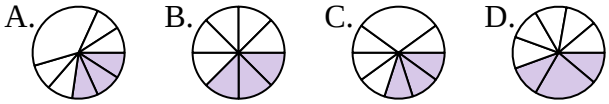


**9)** Durch welche Möglichkeit wird $^{1}/_{4}$ dargestellt?

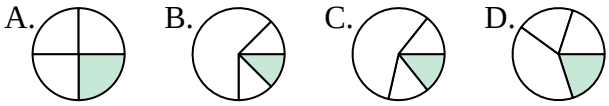


**10)** Durch welche Möglichkeit wird $^{2}/_{6}$ dargestellt?

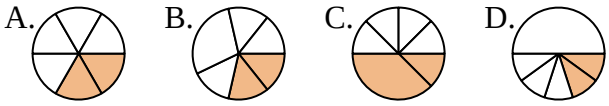


**11)** Durch welche Möglichkeit wird $^{2}/_{8}$ dargestellt?

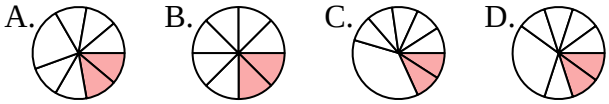


**12)** Durch welche Möglichkeit wird $^{5}/_{6}$ dargestellt?

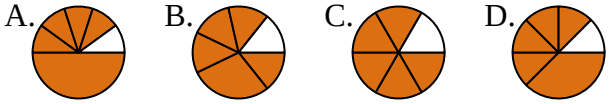


**Antworten**

1. _____
2. _____
3. _____
4. _____
5. _____
6. _____
7. _____
8. _____
9. _____
10. _____
11. _____
12. _____



| | | | | | | | | | | |
|---|---|---|---|---|---|---|---|---|---|---|
| 1-10 | 92 | 83 | 75 | 67 | 58 | 50 | 42 | 33 | 25 | 17 |
| 11-12 | 8 | 0 | | | | | | | | |

Brüche identifizieren

Name: **Lösungsschlüssel**

**Stelle fest, welcher Buchstabe jeden Bruch darstellt.**

**1)** Durch welche Möglichkeit wird $^{2}/_{3}$ dargestellt?

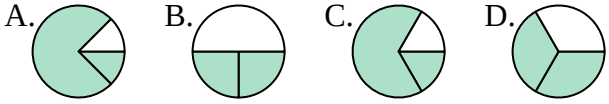


**2)** Durch welche Möglichkeit wird $^{2}/_{4}$ dargestellt?

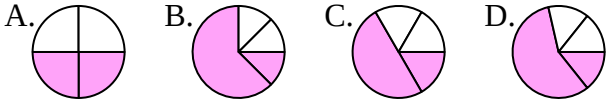


**3)** Durch welche Möglichkeit wird $^{4}/_{6}$ dargestellt?

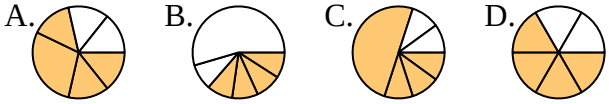


**4)** Durch welche Möglichkeit wird $^{7}/_{8}$ dargestellt?

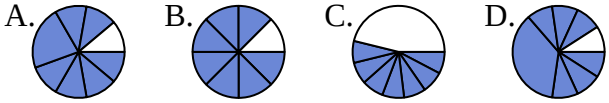


**5)** Durch welche Möglichkeit wird $^{1}/_{3}$ dargestellt?

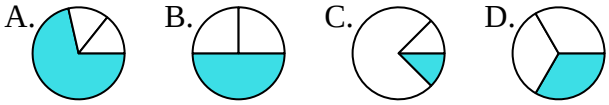


**6)** Durch welche Möglichkeit wird $^{3}/_{4}$ dargestellt?

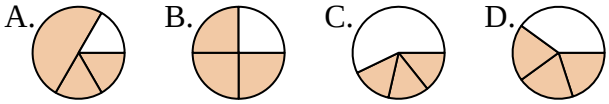


**7)** Durch welche Möglichkeit wird $^{1}/_{6}$ dargestellt?

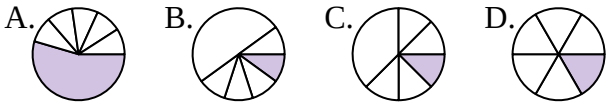


**8)** Durch welche Möglichkeit wird $^{3}/_{8}$ dargestellt?

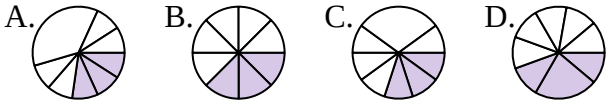


**9)** Durch welche Möglichkeit wird $^{1}/_{4}$ dargestellt?

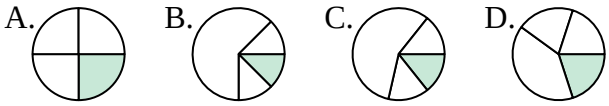


**10)** Durch welche Möglichkeit wird $^{2}/_{6}$ dargestellt?

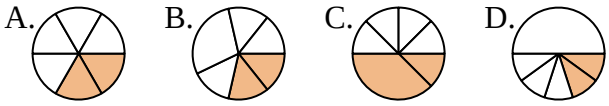


**11)** Durch welche Möglichkeit wird $^{2}/_{8}$ dargestellt?

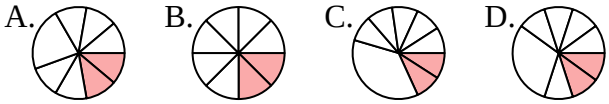


**12)** Durch welche Möglichkeit wird $^{5}/_{6}$ dargestellt?

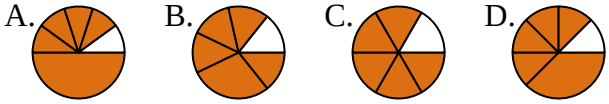


**Antworten**

1. **D**
2. **A**
3. **D**
4. **B**
5. **D**
6. **B**
7. **D**
8. **B**
9. **A**
10. **A**
11. **B**
12. **C**



| | | | | | | | | | | |
|---|---|---|---|---|---|---|---|---|---|---|
| 1-10 | 92 | 83 | 75 | 67 | 58 | 50 | 42 | 33 | 25 | 17 |
| 11-12 | 8 | 0 | | | | | | | | |