Äquivalente Brüche finden (Zahlenstrahl)

Name:

Benutze den Zahlenstrahl um die Fragen zu beantworten.

1) Benutze die Zahlenstrahlen und ermittle den äquivalenten Bruch zu {VAR}

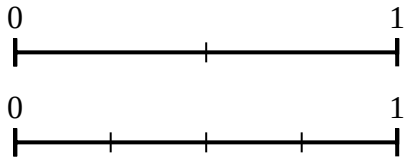

2) Benutze die Zahlenstrahlen und ermittle den äquivalenten Bruch zu {VAR}

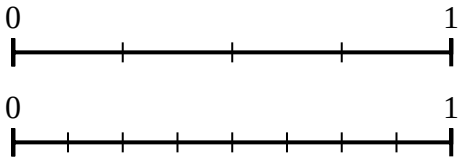

3) Benutze die Zahlenstrahlen und ermittle den äquivalenten Bruch zu {VAR}

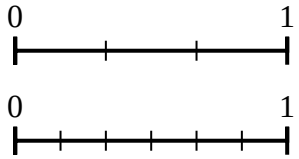

4) Benutze die Zahlenstrahlen und ermittle den äquivalenten Bruch zu {VAR}

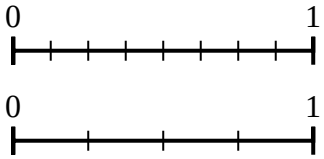

5) Benutze die Zahlenstrahlen und ermittle den äquivalenten Bruch zu {VAR}

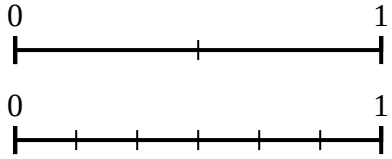

6) Benutze die Zahlenstrahlen und ermittle den äquivalenten Bruch zu {VAR}

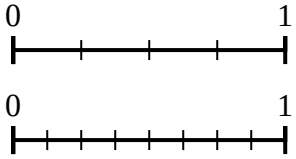

7) Benutze die Zahlenstrahlen und ermittle den äquivalenten Bruch zu {VAR}

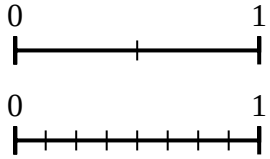

8) Benutze die Zahlenstrahlen und ermittle den äquivalenten Bruch zu {VAR}

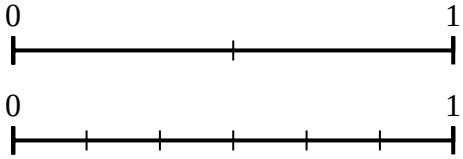

Antworten

1. _____
2. _____
3. _____
4. _____
5. _____
6. _____
7. _____
8. _____

Äquivalente Brüche finden (Zahlenstrahl)

Name: **Lösungsschlüssel**

Benutze den Zahlenstrahl um die Fragen zu beantworten.

1) Benutze die Zahlenstrahlen und ermittle den äquivalenten Bruch zu {VAR}

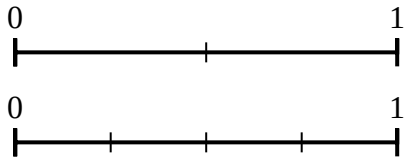

2) Benutze die Zahlenstrahlen und ermittle den äquivalenten Bruch zu {VAR}

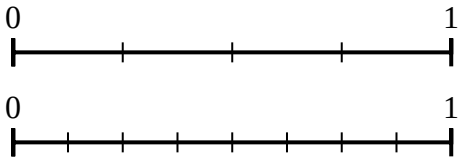

3) Benutze die Zahlenstrahlen und ermittle den äquivalenten Bruch zu {VAR}

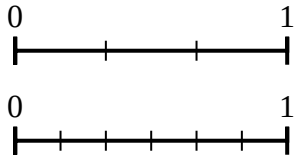

4) Benutze die Zahlenstrahlen und ermittle den äquivalenten Bruch zu {VAR}

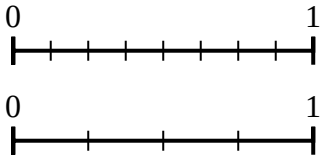

5) Benutze die Zahlenstrahlen und ermittle den äquivalenten Bruch zu {VAR}

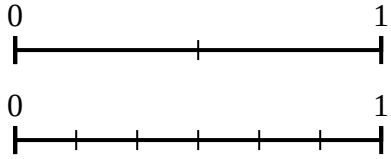

6) Benutze die Zahlenstrahlen und ermittle den äquivalenten Bruch zu {VAR}

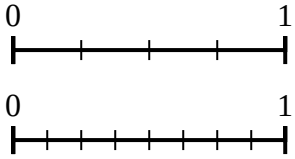

7) Benutze die Zahlenstrahlen und ermittle den äquivalenten Bruch zu {VAR}

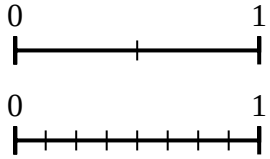

8) Benutze die Zahlenstrahlen und ermittle den äquivalenten Bruch zu {VAR}

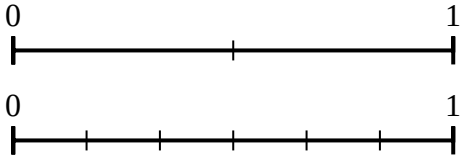

Antworten

1. $\frac{4}{4}$
2. $\frac{8}{8}$
3. $\frac{6}{6}$
4. $\frac{3}{4}$
5. $\frac{0}{6}$
6. $\frac{4}{8}$
7. $\frac{4}{8}$
8. $\frac{3}{6}$

1-8	88	75	63	50	38	25	13	0