Visuelle Division

Name:

Benutze die vorgegebenen Figuren zur Beantwortung der Fragen.

Bsp) Wie viele Gruppen von 6 kannst du machen mit den 18 Figuren unten?

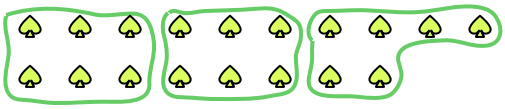

1) Wie viele Gruppen von 3 kannst du machen mit den 9 Figuren unten?

2) Wie viele Gruppen von 6 kannst du machen mit den 18 Figuren unten?

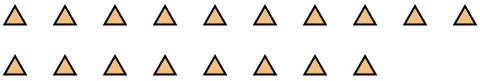

3) Wie viele Gruppen von 8 kannst du machen mit den 16 Figuren unten?

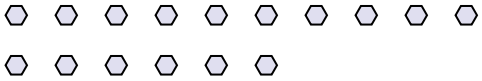

4) Wie viele Gruppen von 4 kannst du machen mit den 8 Figuren unten?

5) Wie viele Gruppen von 8 kannst du machen mit den 16 Figuren unten?

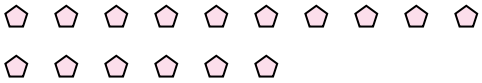

6) Wie viele Gruppen von 2 kannst du machen mit den 24 Figuren unten?

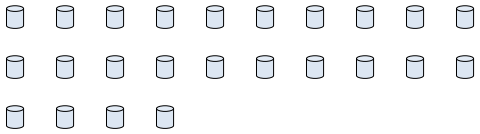

7) Wie viele Gruppen von 2 kannst du machen mit den 18 Figuren unten?

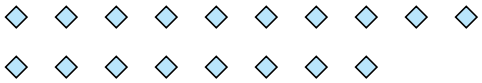

8) Wie viele Gruppen von 9 kannst du machen mit den 27 Figuren unten?



9) Wie viele Gruppen von 9 kannst du machen mit den 36 Figuren unten?

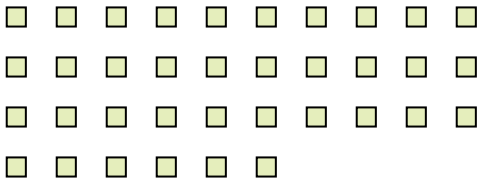

10) Wie viele Gruppen von 6 kannst du machen mit den 30 Figuren unten?

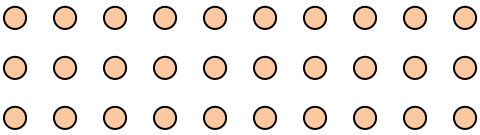

11) Wie viele Gruppen von 3 kannst du machen mit den 39 Figuren unten?

Antworten

Bsp. 3

1. _____
2. _____
3. _____
4. _____
5. _____
6. _____
7. _____
8. _____
9. _____
10. _____
11. _____

1-10	91	82	73	64	55	45	36	27	18	9
11	0									

Visuelle Division

Name: **Lösungsschlüssel**

Benutze die vorgegebenen Figuren zur Beantwortung der Fragen.

Bsp) Wie viele Gruppen von 6 kannst du machen mit den 18 Figuren unten?

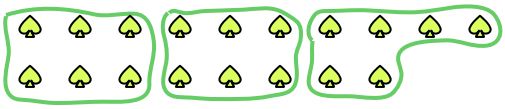

1) Wie viele Gruppen von 3 kannst du machen mit den 9 Figuren unten?

2) Wie viele Gruppen von 6 kannst du machen mit den 18 Figuren unten?

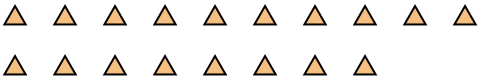

3) Wie viele Gruppen von 8 kannst du machen mit den 16 Figuren unten?

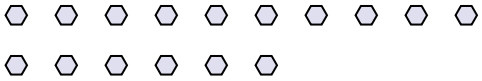

4) Wie viele Gruppen von 4 kannst du machen mit den 8 Figuren unten?

5) Wie viele Gruppen von 8 kannst du machen mit den 16 Figuren unten?

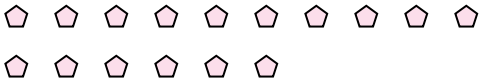

6) Wie viele Gruppen von 2 kannst du machen mit den 24 Figuren unten?

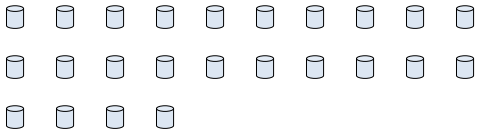

7) Wie viele Gruppen von 2 kannst du machen mit den 18 Figuren unten?

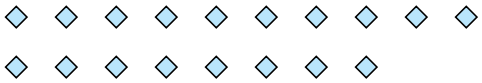

8) Wie viele Gruppen von 9 kannst du machen mit den 27 Figuren unten?



9) Wie viele Gruppen von 9 kannst du machen mit den 36 Figuren unten?

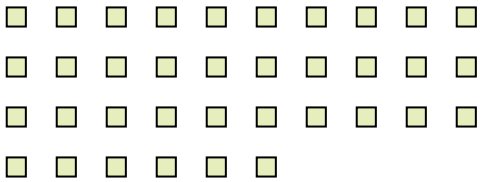

10) Wie viele Gruppen von 6 kannst du machen mit den 30 Figuren unten?

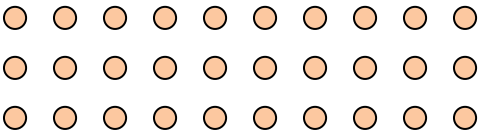

11) Wie viele Gruppen von 3 kannst du machen mit den 39 Figuren unten?

Antworten

Bsp.	3
1.	3
2.	3
3.	2
4.	2
5.	2
6.	12
7.	9
8.	3
9.	4
10.	5
11.	13

1-10	91	82	73	64	55	45	36	27	18	9
11	0									