Finden der Dezimalen auf dem Zahlenstrahl

Name:

Benutze den Zahlenstrahl um die Lösung zu ermitteln.

1)

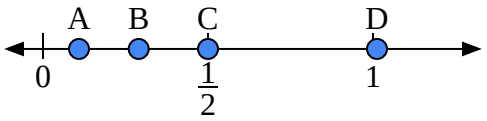

a) Welcher Buchstabe stellt die richtige Lage von 0,5 dar?

b) Welcher Buchstabe stellt die richtige Lage von 0,29 dar?

2)

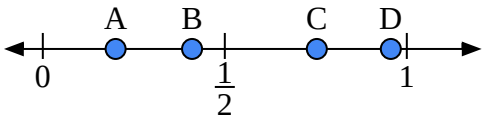

a) Welcher Buchstabe stellt die richtige Lage von 0,20 dar?

b) Welcher Buchstabe stellt die richtige Lage von 0,41 dar?

3)

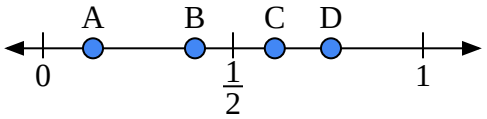

a) Welcher Buchstabe stellt die richtige Lage von 0,40 dar?

b) Welcher Buchstabe stellt die richtige Lage von 0,61 dar?

4)

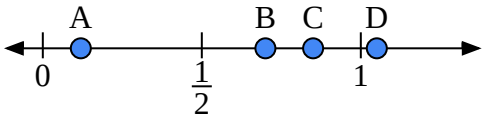

a) Welcher Buchstabe stellt die richtige Lage von 0,70 dar?

b) Welcher Buchstabe stellt die richtige Lage von 0,85 dar?

5)

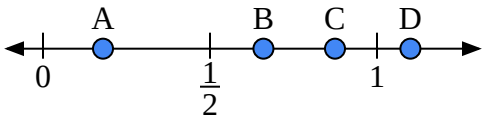

a) Welcher Buchstabe stellt die richtige Lage von 1,1 dar?

b) Welcher Buchstabe stellt die richtige Lage von 0,66 dar?

6)

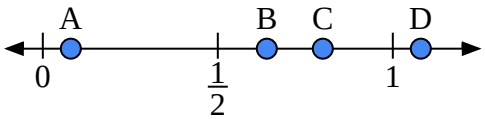

a) Welcher Buchstabe stellt die richtige Lage von 0,8 dar?

b) Welcher Buchstabe stellt die richtige Lage von 0,08 dar?

7)

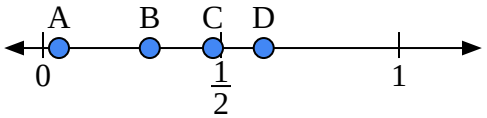

a) Welcher Buchstabe stellt die richtige Lage von 0,30 dar?

b) Welcher Buchstabe stellt die richtige Lage von 0,62 dar?

8)

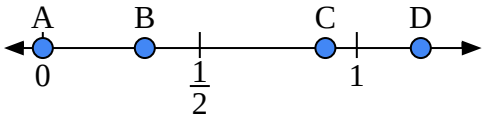

a) Welcher Buchstabe stellt die richtige Lage von 0,00 dar?

b) Welcher Buchstabe stellt die richtige Lage von 0,90 dar?

Antworten

1. ____ ____
2. ____ ____
3. ____ ____
4. ____ ____
5. ____ ____
6. ____ ____
7. ____ ____
8. ____ ____

1-8	88	75	63	50	38	25	13	0

Finden der Dezimalen auf dem Zahlenstrahl Name: **Lösungsschlüssel**

Benutze den Zahlenstrahl um die Lösung zu ermitteln.

1)

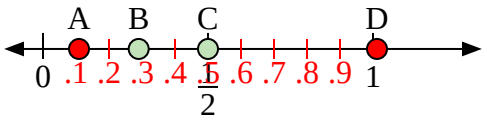

a) Welcher Buchstabe stellt die richtige Lage von 0,5 dar?

b) Welcher Buchstabe stellt die richtige Lage von 0,29 dar?

2)

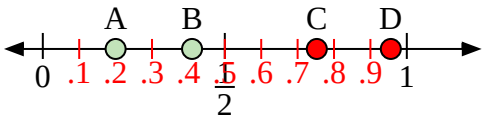

a) Welcher Buchstabe stellt die richtige Lage von 0,20 dar?

b) Welcher Buchstabe stellt die richtige Lage von 0,41 dar?

3)

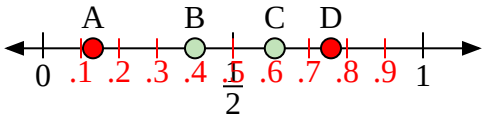

a) Welcher Buchstabe stellt die richtige Lage von 0,40 dar?

b) Welcher Buchstabe stellt die richtige Lage von 0,61 dar?

4)

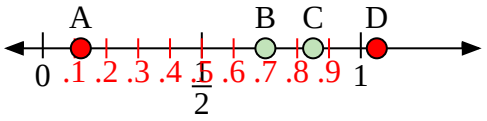

a) Welcher Buchstabe stellt die richtige Lage von 0,70 dar?

b) Welcher Buchstabe stellt die richtige Lage von 0,85 dar?

5)

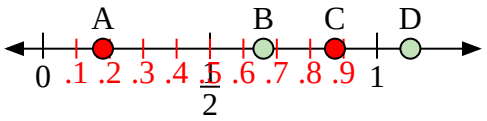

a) Welcher Buchstabe stellt die richtige Lage von 1,1 dar?

b) Welcher Buchstabe stellt die richtige Lage von 0,66 dar?

6)

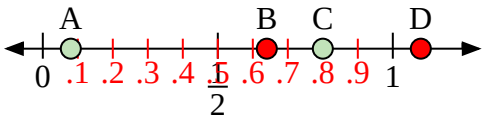

a) Welcher Buchstabe stellt die richtige Lage von 0,8 dar?

b) Welcher Buchstabe stellt die richtige Lage von 0,08 dar?

7)

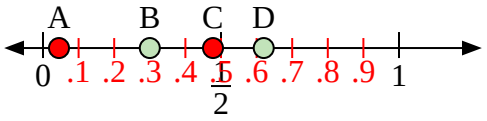

a) Welcher Buchstabe stellt die richtige Lage von 0,30 dar?

b) Welcher Buchstabe stellt die richtige Lage von 0,62 dar?

8)

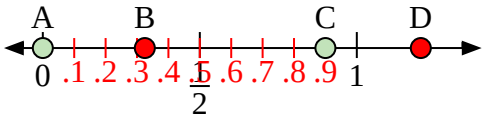

a) Welcher Buchstabe stellt die richtige Lage von 0,00 dar?

b) Welcher Buchstabe stellt die richtige Lage von 0,90 dar?

Antworten

1.	C	B
2.	A	B
3.	B	C
4.	B	C
5.	D	B
6.	C	A
7.	B	D
8.	A	C

1-8	88	75	63	50	38	25	13	0